折れ線グラフ ×だけ練習③(くらべる)

2つのグラフや2本の線の見分け方

なまえ ＿＿＿＿＿＿＿＿

ひづけ ＿＿＿＿＿＿＿＿

・答えを書きましょう
・グラフが2つあるときは、1目もりの大きさをたしかめて、ふえた数をくらべます
・線が2本あるときは、線の見本で見分けます

① アは水そう、イはふろの水の高さです。1分めから5分めまでに、高さが大きくふえたのは、どちらですか。

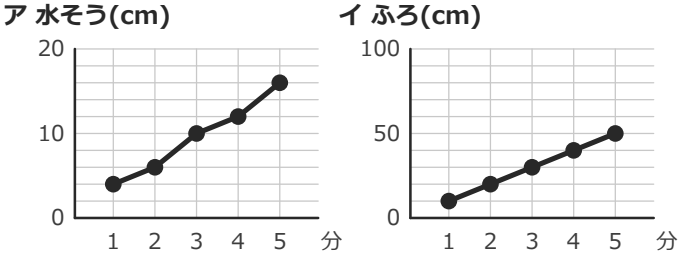

② はれの日と雨の日の、お客さんの数です。雨の日のお客さんが30人になったのは、何時ですか。

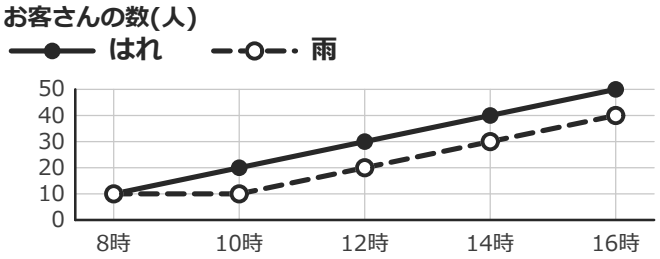

時

③ さくらさんとゆうとさんが歩いた道のりです。さくらさんの3回めの道のりは、何mですか。

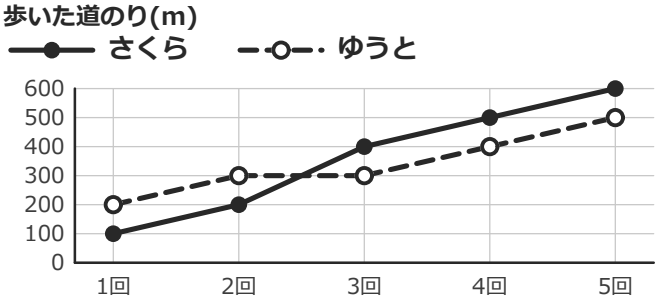

m

④ アはたけのこ、イはつくしの高さです。1日めから5日めまでに、高さが大きくふえたのは、どちらですか。

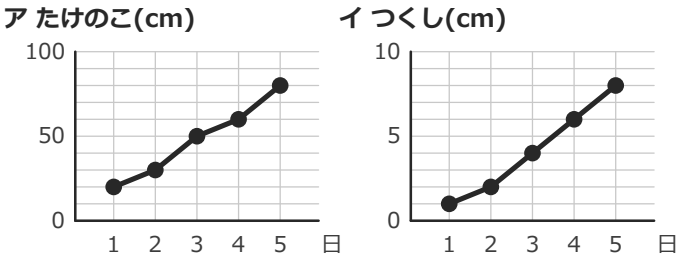

⑤ アはざいりょう、イはかんづめの重さです。1日めから5日めまでに、重さが大きくふえたのは、どちらですか。

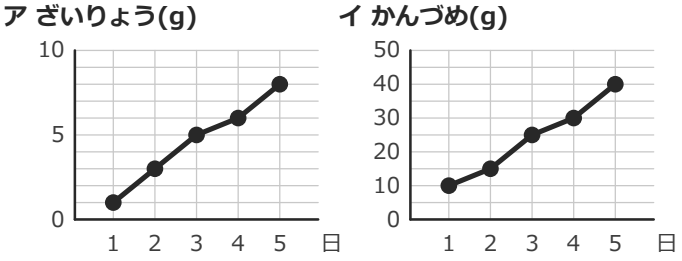

⑥ ひまわりとあさがおの高さです。ひまわりの高さが40cmになったのは、何週めですか。

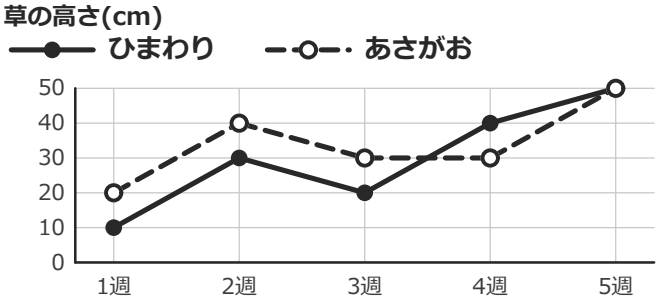

週め

いちごドリル プリント

つづきの無料プリント
「折れ線グラフ」のプリント一覧がひらきます