折れ線グラフ ×だけ練習②(かく)

ひょうの数を、点とせんでグラフにかく

なまえ ＿＿＿＿＿＿＿＿

ひづけ ＿＿＿＿＿＿＿＿

・ひょうの数を、グラフにかきましょう
・点は、たての線と横の線が交わるところに打ちます
・点は、左から順に直線でむすびます

① ほけんしつに来た人の数です。ひょうを見て、グラフにかきましょう。

来た人の数(人)

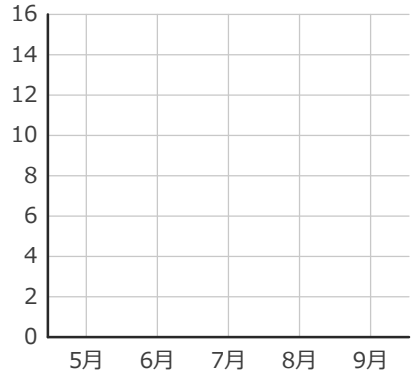

月	人
5月	6
6月	12
7月	4
8月	10
9月	14

② あつめたぎゅうにゅうパックの数です。ひょうを見て、グラフにかきましょう。

あつめた数(こ)

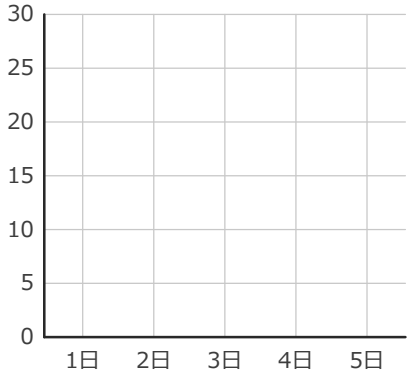

日	こ
1日	10
2日	25
3日	15
4日	30
5日	5

③ サッカーのゴールの数です。ひょうを見て、グラフにかきましょう。

ゴールの数(本)

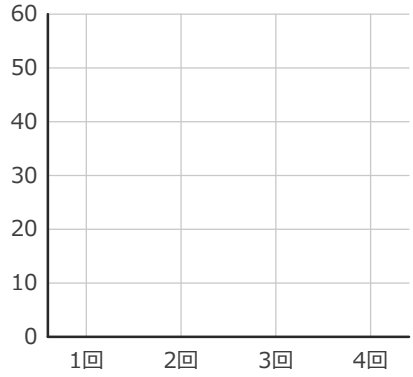

回	本
1回	20
2回	50
3回	30
4回	60

④ 水そうの水の温度です。ひょうを見て、グラフにかきましょう。

水の温度(度)

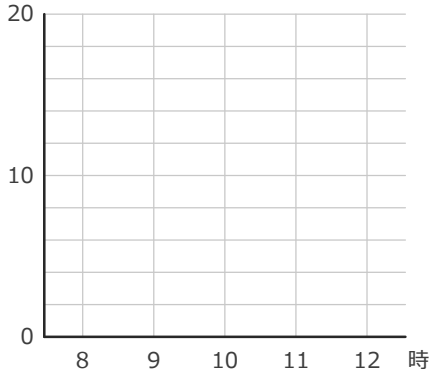

時	度
8時	6
9時	14
10時	8
11時	18
12時	12

⑤ 学級文庫の、月ごとの本の数です。ひょうを見て、グラフにかきましょう。

本の数(さつ)

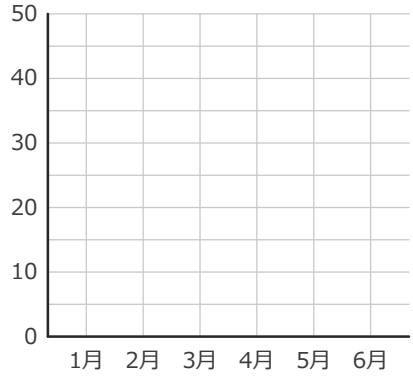

月	さつ
1月	15
2月	35
3月	20
4月	45
5月	25
6月	40

⑥ 売れたジュースの数です。ひょうを見て、グラフにかきましょう。

売れた数(本)

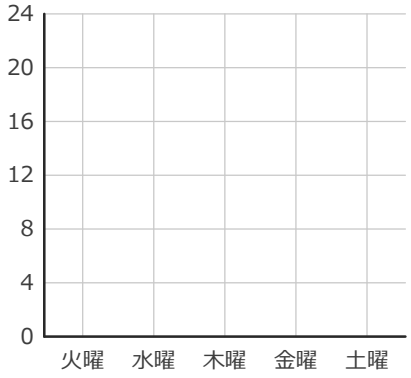

曜日	本
火曜	12
水曜	20
木曜	8
金曜	24
土曜	16

いちごドリル プリント

つづきの無料プリント
「折れ線グラフ」のプリント一覧がひらきます

折れ線グラフ ×だけ練習②(かく)【こたえ】

ひょうの数を、点とせんでグラフにかく

なまえ ＿＿＿＿＿＿＿＿＿＿

ひづけ ＿＿＿＿＿＿＿＿＿＿

① 来た人の数(人)

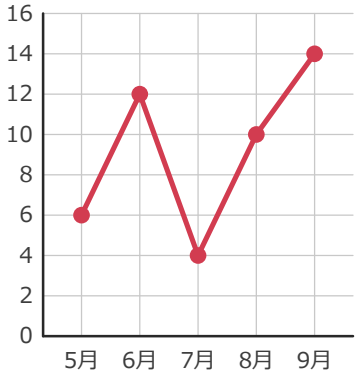

→ 点は、たての線と横の線が交わるところに打ち、5月→9月の順にむすびます。数の大きい順にむすぶと線が行き来します。目で見て、点が正しい横線の上にのっていればOKです。となりの横線に寄っていたらまちがいです。

② あつめた数(こ)

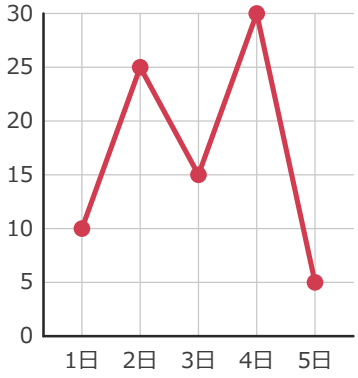

→ 点は、たての線と横の線が交わるところに打ち、1日→5日の順にむすびます。数の大きい順にむすぶと線が行き来します。目で見て、点が正しい横線の上にのっていればOKです。となりの横線に寄っていたらまちがいです。

③ ゴールの数(本)

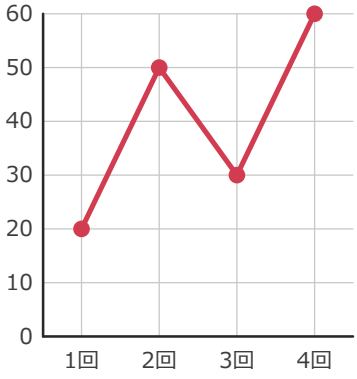

→ 点は、たての線と横の線が交わるところに打ち、1回→4回の順にむすびます。数の大きい順にむすぶと線が行き来します。目で見て、点が正しい横線の上にのっていればOKです。となりの横線に寄っていたらまちがいです。

④ 水の温度(度)

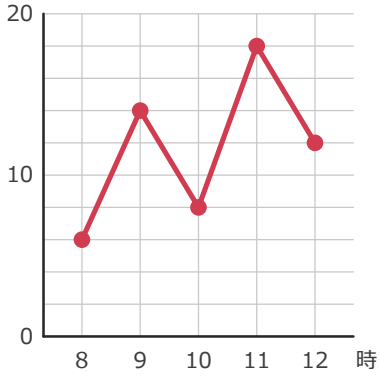

→ 点は、たての線と横の線が交わるところに打ち、8時→12時の順にむすびます。数の大きい順にむすぶと線が行き来します。目で見て、点が正しい横線の上にのっていればOKです。となりの横線に寄っていたらまちがいです。

⑤ 本の数(さつ)

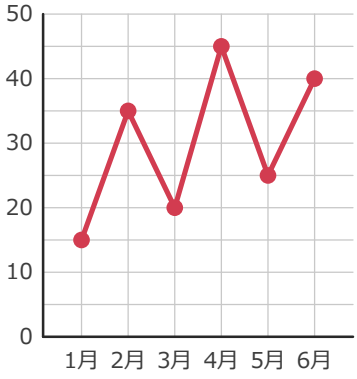

→ 点は、たての線と横の線が交わるところに打ち、1月→6月の順にむすびます。数の大きい順にむすぶと線が行き来します。目で見て、点が正しい横線の上にのっていればOKです。となりの横線に寄っていたらまちがいです。

⑥ 売れた数(本)

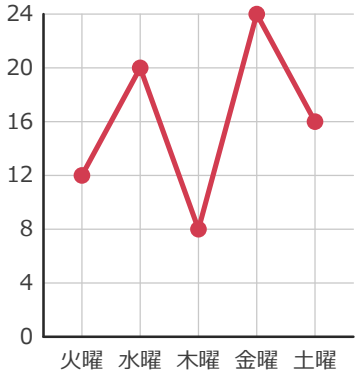

→ 点は、たての線と横の線が交わるところに打ち、火曜→土曜の順にむすびます。数の大きい順にむすぶと線が行き来します。目で見て、点が正しい横線の上にのっていればOKです。となりの横線に寄っていたらまちがいです。