折れ線グラフ はじめのテスト

5つのつまずきをたしかめよう

なまえ ＿＿＿＿＿＿＿＿

ひづけ ＿＿＿＿＿＿＿＿

・答えを書きましょう
・③は、ひょうの数をグラフにかきます。点を打って、左から順に直線でむすびます

① **気温(度)**

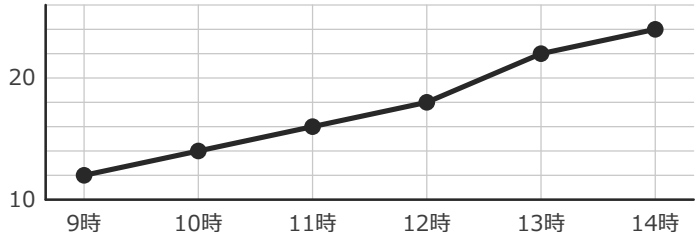

グラフは、ある日の気温です。12時から13時までに、気温は何度上がりましたか。

＿＿＿＿ **度**

② **ア 草の高さ(cm)**

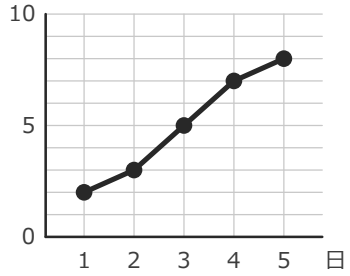

イ 草の高さ(cm)

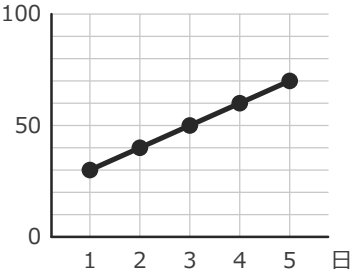

アとイは、ちがう草の高さのグラフです。1日めから5日めまでに、高さが大きくふえたのは、どちらですか。

＿＿＿＿

③ **かりた本の数(さつ)**

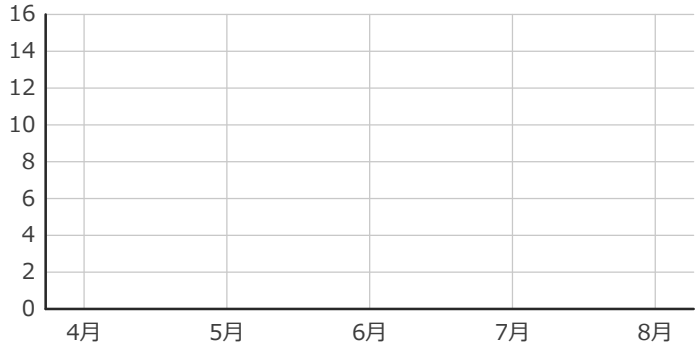

図書室で本をかりた数です。ひょうを見て、折れ線グラフにかきましょう。

月	さつ
4月	8
5月	14
6月	6
7月	12
8月	4

④ **気温と水温(度)**

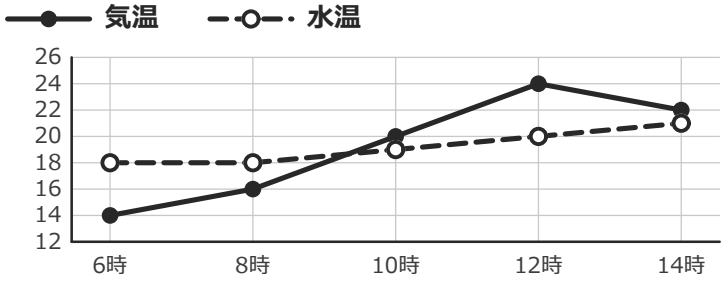

プールのそばで、気温と水温をはかりました。水温が20度になったのは、何時ですか。

＿＿＿＿ **時**

⑤ **かしだし数(さつ)**

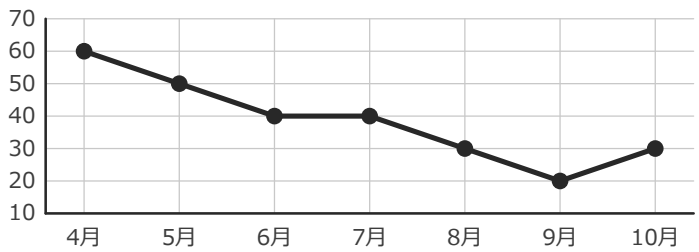

ある教室の、本のかしだし数です。4月から10月までに、数はどうなりましたか。

ふえた・へった ＿＿＿＿

ちがい ＿＿＿＿ **さつ**

いちごドリル プリント

つづきの無料プリント
「折れ線グラフ」のプリント一覧がひらきます

折れ線グラフ はじめのテスト【こたえ】

5つのつまずきをたしかめよう

なまえ ＿＿＿＿＿＿＿＿＿＿

ひづけ ＿＿＿＿＿＿＿＿＿＿

① 気温(度)

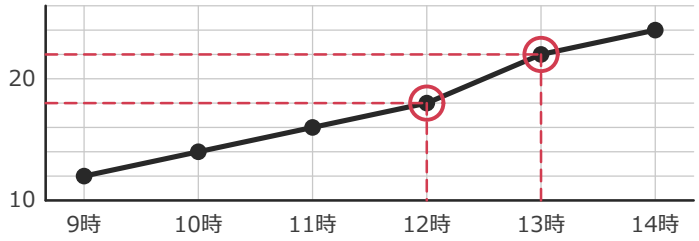

4 度

→ 1目もりは2度です。1目もりを1と読んで2度とする誤答に注意。

式 22－18＝4

まちがえたら → ×だけ練習①

② ア 草の高さ(cm)　イ 草の高さ(cm)

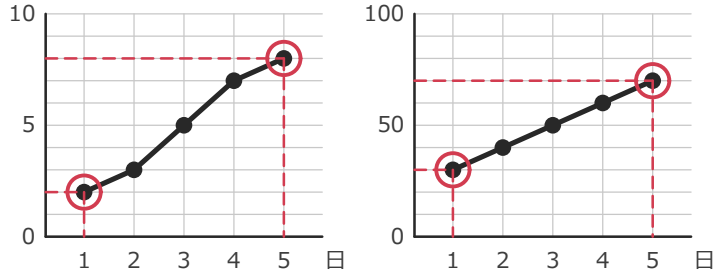

イ

→ アは1目もり1cm、イは1目もり10cmです。線のかたむきだけで「ア」とする誤答に注意。

式 ア 8－2＝6 ／ イ 70－30＝40

まちがえたら → ×だけ練習③

③ かりた本の数(さつ)

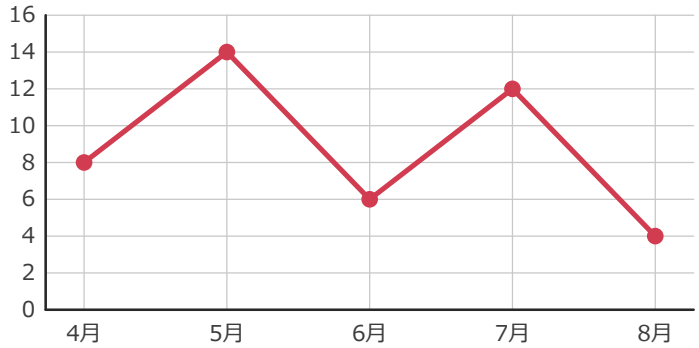

→ 点は、たての線と横の線が交わるところに打ち、4月→8月の順にむすびます。数の大きい順にむすぶと線が行き来します。目で見て、点が正しい横線の上にのっていればOKです。となりの横線に寄っていたらまちがいです。

点: 4月8、5月14、6月6、7月12、8月4

まちがえたら → ×だけ練習②

④ 気温と水温(度)

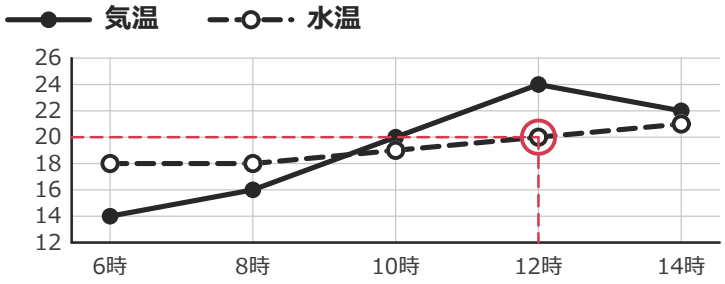

12 時

→ 点線(白い丸)が水温です。実線(黒い丸)の気温が20度なのは10時。線の見本を見ちがえた誤答に注意。

水温(点線)が20の点 → 12時

まちがえたら → ×だけ練習③

⑤ かしだし数(さつ)

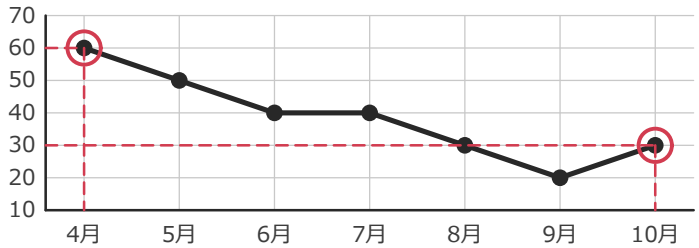

ふえた・へった **へった**

ちがい **30** さつ

→ 最後の9月→10月だけ上がっていますが、はじめ(4月)とおわり(10月)をくらべます。ふえたとする誤答に注意。

式 60－30＝30（へった）

まちがえたら → ×だけ練習①