まとめテスト②

中1／空間図形 まとめ②／50点満点・制限時間 25分

なまえ ＿＿＿＿＿＿＿＿

ひづけ ＿＿＿＿＿＿＿＿

・全部で50点、制限時間は25分。配点は大問の見出しに書いてある。計算は 別の紙で。
・答えは □ に 書く。選ぶ 問題は 記号を 1つ、数の 答えは 数だけ（□π は π の 前の 数だけ）。
・図は 測らず 書いてある 数で。点線は かくれて 見えない 辺。大問5は 語群の 記号を 書く（同じ 記号は 1回だけ）。

大問1　立体と 正多面体　各3点（12点）

(1) 八角錐の 頂点の 数は？ □

(2) 平面だけで かこまれた 立体は いくつ？ 円柱・立方体・球・三角錐・円錐・五角柱 □

(3) 正六面体の 頂点の 数は？（正方形 6まいが 1つの 頂点に 3まいずつ 集まる） □

(4) 正四面体の 辺の 数は？（面は 正三角形が 4こ） □

大問2　位置関係・回転体・投影図　各3点（15点）

(1) 円錐の 投影図。この 円錐の 体積は？

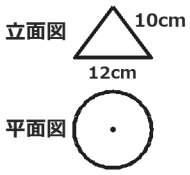

□ π

(2) 投影図が 右の 図。立てて 置いた 立体は どれ？
ア 円柱　イ 三角柱
ウ 四角柱

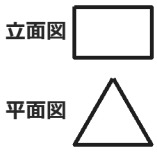

□

(3) 四角錐P-ABCDで 辺ABと ねじれの位置に ある 辺は 何本？

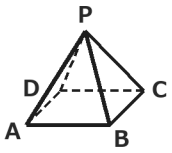

□

(4) 直方体で 辺FGと 平行な 面は 何こ？

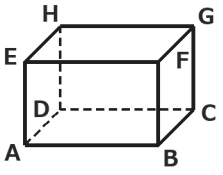

□

(5) 図の 長方形を 直線 ℓ を 軸に 1回転 させる。体積は？

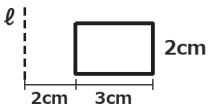

□ π

大問3　展開図・表面積・体積　各4点（12点）

(1) この 展開図を 組み立てる。面ぬと むかいあう 面は？
ア に　イ ね　ウ の

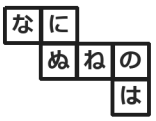

□

(2) 正四角錐の 底面は 1辺 8cm、側面の 三角形の 高さは 5cm。表面積は？ □

(3) 半径6cmの 半球の 表面全体の 面積は？ □ π

大問4　利用（体積・展開図）　各3点（6点）

(1) 半径6cmの 球が ちょうど 入る 円柱が ある。球の 体積は？ □ π

(2) 円錐の 底面の 半径3cm、母線4cm。側面の おうぎ形の 中心角は 何度？ □

大問5　性質の 穴埋め　各1点（5点）

円錐の 展開図などの 性質。
語群の 記号を □ に 書く。

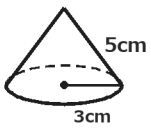

円錐の 展開図の 側面は(1) □ 形

その 弧の 長さは 底面の(2) □ に 等しい

平面上の 交わる(3) □ 本と 垂直なら 平面に 垂直

同じ 平面に なく 交わらない 2直線は(4) □ の 位置

立方体の 展開図は 全部で(5) □ 通り

語群（記号を 書く）

ア おうぎ
イ 円周
ウ 2
エ ねじれ
オ 11
カ 三角
キ 1
ク 35

いちごドリル プリント

つづきの無料プリント
「空間図形」のプリント一覧がひらきます