組み合わせた 立体 ドリル④

中1 空間図形／ドリル④ 5問／目標 12分

なまえ ＿＿＿＿＿＿＿＿

ひづけ ＿＿＿＿＿＿＿＿

・立体を 円柱・円錐・半球に 分けて 体積を 求める。□ には π の 前の 数を 書く
・文の 問題は 正しければ ○、まちがいなら × を □ に 書く

① 円柱の 上に 同じ 半径の 半球を のせた 立体の 体積は？

□ π cm³

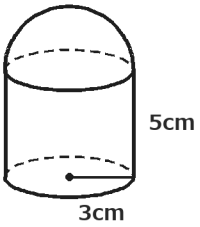

② 円柱の 上に、同じ 底面の 円錐を のせた 立体の 体積は？

□ π cm³

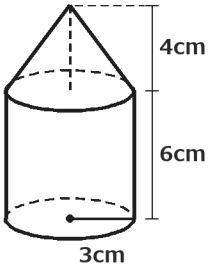

③ 底面の 半径 6cm、高さ 5cm の 円柱から、同じ 底面・高さの 円錐を くりぬいた 立体の 体積は？

□ π cm³

④ 半径 3cm の 球が ちょうど 入る 円柱（高さ 6cm）と、同じ 底面・高さの 円錐。体積は？

円錐 □ π cm³ 球 □ π cm³ 円柱 □ π cm³

⑤ 球の 体積は、ちょうど 入る 円柱の 体積の $\frac{1}{3}$ で ある。 □

いちごドリル プリント

つづきの無料プリント
「空間図形」のプリント一覧がひらきます

組み合わせた 立体 ドリル④【こたえ】

なまえ ＿＿＿＿＿＿＿＿

中1 空間図形／ドリル④ 5問／目標 12分

ひづけ ＿＿＿＿＿＿＿＿

・立体を 円柱・円錐・半球に 分けて 体積を 求める。□ には π の 前の 数を 書く
・文の 問題は 正しければ ○、まちがいなら × を □ に 書く

① 円柱の 上に 同じ 半径の 半球を のせた 立体の 体積は？

63 π cm³

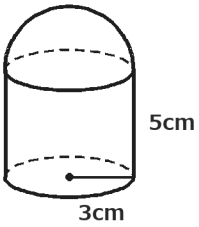

円柱 $\pi\times3^2\times5=45\pi$、半球 $\frac{4}{3}\times\pi\times3^3\div2=18\pi$。合わせて 63π

② 円柱の 上に、同じ 底面の 円錐を のせた 立体の 体積は？

66 π cm³

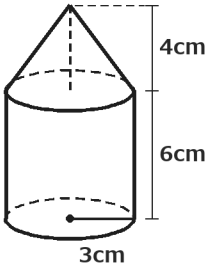

円錐 $\frac{1}{3}\times\pi\times3^2\times4=12\pi$、円柱 $\pi\times3^2\times6=54\pi$。合わせて 66π（円錐に $\frac{1}{3}$ を 忘れると ×）

③ 底面の 半径 6cm、高さ 5cm の 円柱から、同じ 底面・高さの 円錐を くりぬいた 立体の 体積は？

120 π cm³

円柱 180π、円錐 60π。180π−60π＝120π（円柱の $\frac{2}{3}$）

④ 半径 3cm の 球が ちょうど 入る 円柱（高さ 6cm）と、同じ 底面・高さの 円錐。体積は？

円錐 **18** π cm³ 球 **36** π cm³ 円柱 **54** π cm³

円錐 18π、球 36π、円柱 54π。円錐：球：円柱＝1：2：3

⑤ 球の 体積は、ちょうど 入る 円柱の 体積の $\frac{1}{3}$ で ある。 **×**

×。$\frac{2}{3}$。$\frac{1}{3}$ なのは 円錐

丸つけ π の 前の 数で 見る。部分ごとに 合って いれば 途中点を あげて よい

いちごドリル プリント