直径から 体積 ドリル②

中1 空間図形／ドリル② 6問／目標 12分

なまえ ＿＿＿＿＿＿＿＿

ひづけ ＿＿＿＿＿＿＿＿

・円の まん中を 通って 円を 横切る 線の 長さは 直径。体積を 求めて □ に π の 前の 数を 書く
・ア・イ・ウ は 正しい ものを ○ で かこむ

① 円柱の 体積は？

□ π cm³

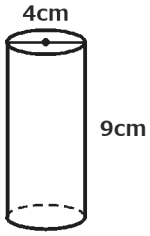

② 球の 体積は？

□ π cm³

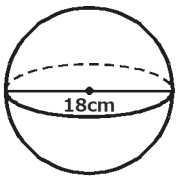

③ 円柱の 体積は？

□ π cm³

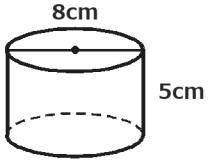

④ 円錐の 体積は？

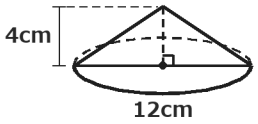

□ π cm³

⑤ 半球の 体積は？

□ π cm³

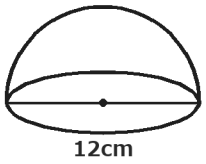

⑥ 直径 14cm の 円柱の 底面積は？

ア 196π cm²

イ 49π cm²

ウ 14π cm²

いちごドリル プリント

つづきの無料プリント
「空間図形」のプリント一覧がひらきます