表面積 まとめの ドリル⑤

中1 空間図形／ドリル⑤ 7問／目標 15分

なまえ ＿＿＿＿＿＿＿＿

ひづけ ＿＿＿＿＿＿＿＿ /25

・ヒントなしで 解く。答えを □ に 書く。□π は π の 前の 数
・文の 問題は 正しければ ○、まちがいなら × を □ に 書く

① 底面が 直角三角形（3辺 8cm・15cm・17cm）の 三角柱の 表面積は？
4点

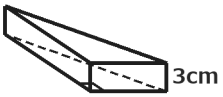

□ cm²

② 底面 1辺 12cm、側面の 三角形の 高さ 10cm の 正四角錐の 表面積は？
4点

□ cm²

③ 半径 7cm の 円柱の 展開図で、側面の 長方形の 横の 長さは？
3点

□ π cm

④ 円柱の 表面積は？
4点

□ π cm²

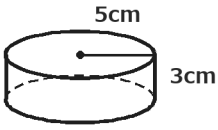

⑤ 円錐の 表面積は？
4点

□ π cm²

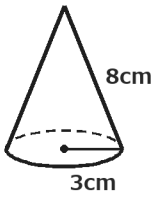

⑥ 4m² は 何cm²？
3点

□ cm²

⑦ 円錐の 側面積は、母線を 半径と する 円の 面積と 同じ。
3点

□

いちごドリル プリント

つづきの無料プリント
「空間図形」のプリント一覧がひらきます