展開図で 表面積 ドリル③

中1 空間図形／ドリル③ 3問／目標 12分

なまえ ＿＿＿＿＿＿＿＿

ひづけ ＿＿＿＿＿＿＿＿

・展開図の 面を 1つずつ 求めて、表面積に まとめる
・□π は π の 前の 数を 書く。図は 測らず 書いてある 長さで

① 円柱の 展開図。それぞれ 求める。

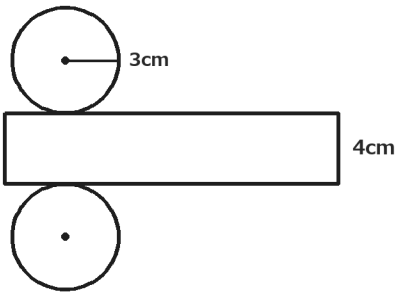

底面 1つ ［　　］ π cm²

側面の 横 ［　　］ π cm

側面積 ［　　］ π cm²

表面積 ［　　］ π cm²

② 円錐の 展開図。それぞれ 求める。

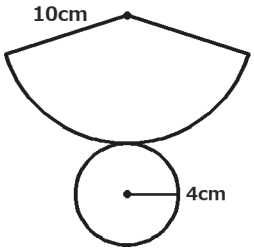

底面積 ［　　］ π cm²

弧の 長さ ［　　］ π cm

側面積 ［　　］ π cm²

表面積 ［　　］ π cm²

③ 底面の 1辺 10cm の 正四角錐の 展開図。それぞれ 求める。

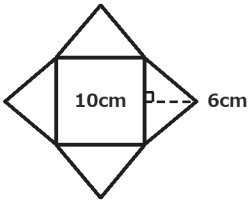

三角形 1つ ［　　］ cm²

側面積 ［　　］ cm²

表面積 ［　　］ cm²

いちごドリル プリント

つづきの無料プリント
「空間図形」のプリント一覧がひらきます