錐の 表面積 ドリル②

なまえ ＿＿＿＿＿＿＿＿

中1 空間図形／ドリル② 5問／目標 12分

ひづけ ＿＿＿＿＿＿＿＿

・正四角錐は 展開図、円錐は 見取図を 見て 表面積を 出す
・円錐の 答えは π の 前の 数。底面と 側面を 足した 数を 書く

① 底面の 1辺 6cm の 正四角錐の 展開図。
表面積は？

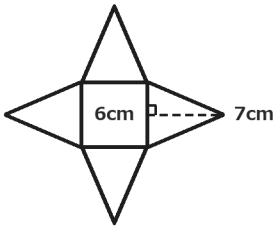

□ cm²

② 円錐の 表面積は？

□ π cm²

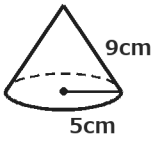

③ 円錐の 表面積は？

□ π cm²

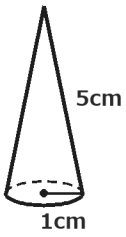

④ 底面の 1辺 10cm の 正四角錐の 展開図。
表面積は？

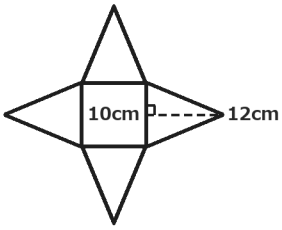

□ cm²

⑤ 円錐の 表面積は？

□ π cm²

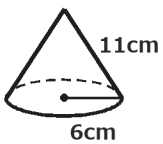

いちごドリル プリント

つづきの無料プリント
「空間図形」のプリント一覧がひらきます