柱の 表面積 ドリル①

中1 空間図形／ドリル① 6問／目標 12分

なまえ ＿＿＿＿＿＿＿＿

ひづけ ＿＿＿＿＿＿＿＿

・右の 角柱・円柱の 表面積（全部の 面の 面積の 和）を □ に 書く
・円柱の 答えは π の 前の 数だけ。長さは 図に 書いて ある 数を 使う

① 直方体の 表面積は？

□ cm^2

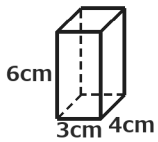

② 円柱の 表面積は？

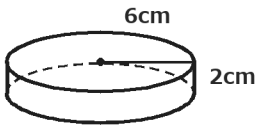

□ π cm^2

③ 円柱の 表面積は？

□ π cm^2

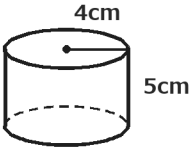

④ 底面が 直角三角形（3辺 5cm・12cm・13cm）の 三角柱の 表面積は？

□ cm^2

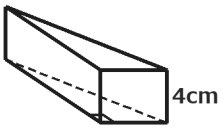

⑤ 円柱の 表面積は？

□ π cm^2

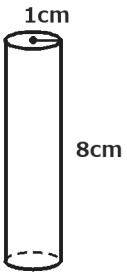

⑥ 円柱の 表面積は？

□ π cm^2

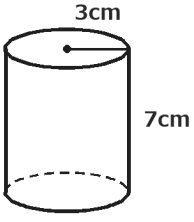

いちごドリル プリント

つづきの無料プリント
「空間図形」のプリント一覧がひらきます