展開図 まとめの ドリル⑤

中1 空間図形／ドリル⑤ 10問／目標 15分

なまえ ＿＿＿＿＿＿＿＿

ひづけ ＿＿＿＿＿＿＿＿ /25

・ヒントなしで 解く。答えを □ に 書き、ア・イ… は 正しい ものを 全部 ○ で かこむ
・□π は π の 前の 数。文の 問題は ○か×を □ に 書く

① 立方体の 展開図に なる ものを 全部 えらぶ。
3点

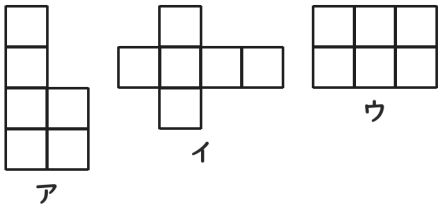

② 展開図を 組み立てた とき、次の 面と 向かい合う 面は？
2点

面あ と □

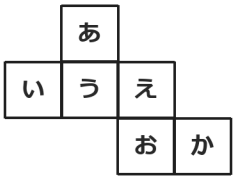

③ 底面の 半径 3cm、母線 10cm の 円錐の 側面の 中心角は？
3点

□ °

④ 底面の 半径 7cm の 円錐の 側面の 弧の 長さは？
2点

□ π cm

⑤ 組み立てた とき、点Cと 重なる 点を 全部 書く。
3点

□

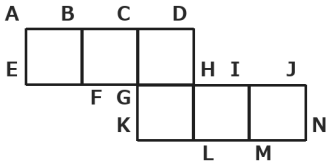

⑥ 母線 9cm、側面の 中心角 240° の 円錐の 底面の 半径は？
3点

□ cm

⑦ 底面の 半径 6cm、母線 9cm の 円錐の 側面は？
2点

ア 半円
イ 半円より 小さい おうぎ形
ウ 半円より 大きい おうぎ形

⑧ さいころ（向かい合う 面の 和が 7）の 展開図。ア・イ・ウ の 目は？
3点

ア □ イ □ ウ □

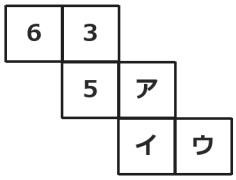

⑨ 円錐の 側面の おうぎ形は、いつも 半円に なる。
2点 □

⑩ 立方体の 展開図は 全部で 11通り ある。
2点 □

いちごドリル プリント

つづきの無料プリント
「空間図形」のプリント一覧がひらきます