向かい合う 面 ドリル①

中1 空間図形／ドリル① 6問／目標 10分

なまえ ＿＿＿＿＿＿＿＿

ひづけ ＿＿＿＿＿＿＿＿

・ア・イ… は 立方体の 展開図に なる ものを 全部 ○ で かこむ
・□ には 向かい合う 面の 字を 書く。文の 問題は ○か×を □ に 書く

① 立方体の 展開図に なる ものを 全部 えらぶ。

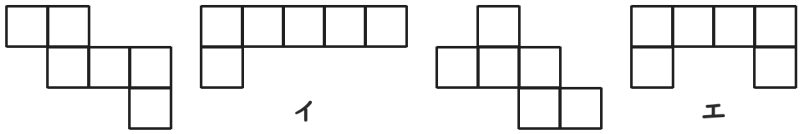

② 展開図を 組み立てた とき、次の 面と 向かい合う 面は？

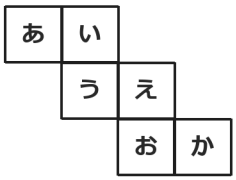

面あ と □

面い と □

④ 展開図を 組み立てた とき、次の 面と 向かい合う 面は？

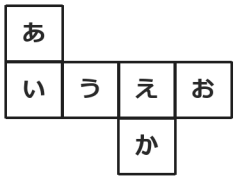

面い と □

面お と □

③ 6つの 正方形が 辺で つながって いれば、いつも 立方体の 展開図に なる。 □

⑤ 展開図で 一列に 並んだ 4つの 面は、1つ おきに 向かい合う。 □

⑥ この 展開図を 組み立てた とき、次の 面と 向かい合う 面は？

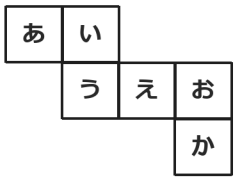

面い と □

面う と □

いちごドリル プリント

つづきの無料プリント
「空間図形」のプリント一覧がひらきます

向かい合う 面 ドリル①【こたえ】

中1 空間図形／ドリル① 6問／目標 10分

なまえ ＿＿＿＿＿＿＿＿

ひづけ ＿＿＿＿＿＿＿＿

・ア・イ… は 立方体の 展開図に なる ものを 全部 ○ で かこむ
・□ には 向かい合う 面の 字を 書く。文の 問題は ○か×を □ に 書く

① 立方体の 展開図に なる ものを 全部 えらぶ。

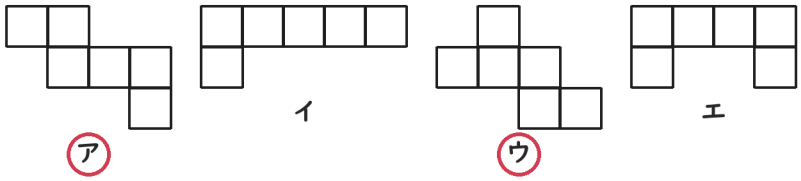

組み立てると 面が 重なる 形は ×（イ・エ）

② 展開図を 組み立てた とき、次の 面と 向かい合う 面は？

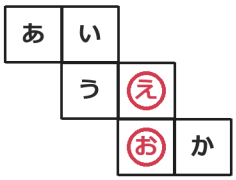

面あ と え

面い と お

あ と え、い と お が 向かい合う（組み立てると 重ならない 向かいの 位置。となりあう 面とは 向かい合わない）

④ 展開図を 組み立てた とき、次の 面と 向かい合う 面は？

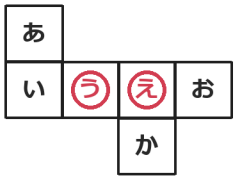

面い と え

面お と う

い と え、お と う が 向かい合う（組み立てると 重ならない 向かいの 位置。となりあう 面とは 向かい合わない）

③ 6つの 正方形が 辺で つながって いれば、いつも 立方体の 展開図に なる。 ×

×。2×3 の 長方形の 形などは 組み立てると 面が 重なる

⑤ 展開図で 一列に 並んだ 4つの 面は、1つ おきに 向かい合う。 ○

○。となりどうしは 向かい合わない

⑥ この 展開図を 組み立てた とき、次の 面と 向かい合う 面は？

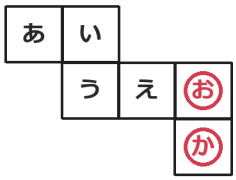

面い と か

面う と お

い と か、う と お が 向かい合う（組み立てると 重ならない 向かいの 位置。となりあう 面とは 向かい合わない）

丸つけ ①は 正しい 形を 全部 えらび、ほかを えらんで いなければ ○

いちごドリル プリント