向かい合う 面 ドリル①

中1 空間図形／ドリル① 6問／目標 10分

なまえ ＿＿＿＿＿＿＿＿

ひづけ ＿＿＿＿＿＿＿＿

・ア・イ… は 立方体の 展開図に なる ものを 全部 ○ で かこむ
・□ には 向かい合う 面の 字を 書く。文の 問題は ○か×を □ に 書く

① 立方体の 展開図に なる ものを 全部 えらぶ。

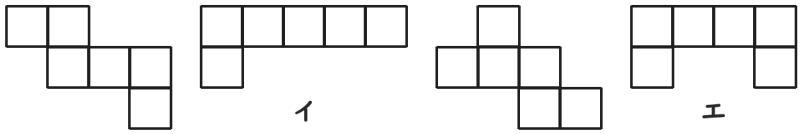

② 展開図を 組み立てた とき、次の 面と 向かい合う 面は？

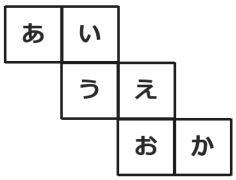

面あ と □

面い と □

④ 展開図を 組み立てた とき、次の 面と 向かい合う 面は？

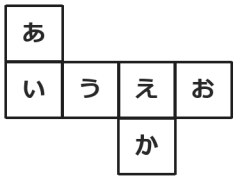

面い と □

面お と □

③ 6つの 正方形が 辺で つながって いれば、いつも 立方体の 展開図に なる。 □

⑤ 展開図で 一列に 並んだ 4つの 面は、1つ おきに 向かい合う。 □

⑥ この 展開図を 組み立てた とき、次の 面と 向かい合う 面は？

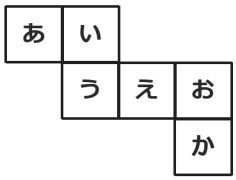

面い と □

面う と □

いちごドリル プリント

つづきの無料プリント
「空間図形」のプリント一覧がひらきます