# 母線と 高さ ドリル④

なまえ ＿＿＿＿＿＿＿＿

中1 空間図形／ドリル④ 5問／目標 12分

ひづけ ＿＿＿＿＿＿＿＿

・投影図に 書いて ある 長さから 体積を 求める。点線は 高さ
・□ には 数（π の 問題は π の 前の 数）を 書く。ア・イ・ウ は ○ で かこむ

① 右は 円錐の 投影図。この 円錐の 体積は？

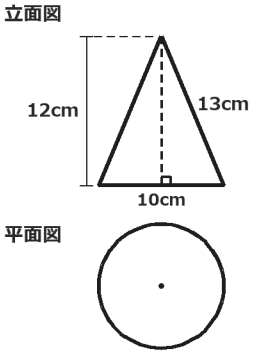


体積 □ π cm³

② 右は 円錐の 投影図。この 円錐の 体積は？

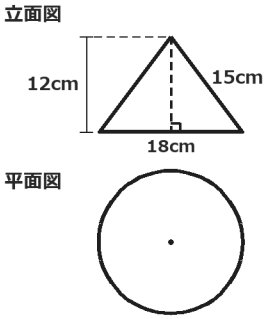


体積 □ π cm³

③ 右は 円錐の 投影図。この 円錐の 体積は？

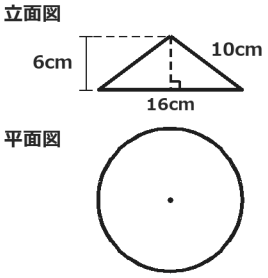


体積 □ π cm³

④ 右は 正四角錐の 投影図。この 正四角錐の 体積は？

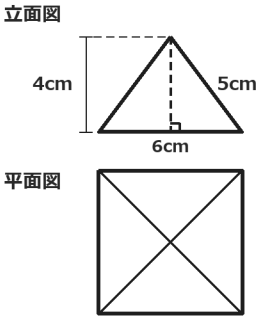


□ cm³

⑤ 円錐の 立面図の 二等辺三角形で、斜めの 辺の 長さは 円錐の 何？

ア 高さ　　イ 母線　　ウ 半径


いちごドリル プリント

つづきの無料プリント
「空間図形」のプリント一覧がひらきます