回転体の 体積 ドリル①

中1 空間図形／ドリル① 6問／目標 12分

なまえ ＿＿＿＿＿＿＿＿

ひづけ ＿＿＿＿＿＿＿＿

・図形を 直線ℓ の まわりに 1回転 させて できる 立体の 体積を 求める
・□ には π の 前の 数を 書く。図は 測らず 書いてある 長さで 考える

① 図形を 直線ℓ を 軸に 1回転 させた 立体の 体積は？

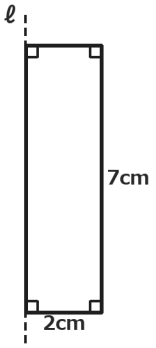

□ π cm³

② 図形を 直線ℓ を 軸に 1回転 させた 立体の 体積は？

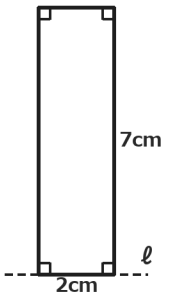

□ π cm³

③ 図形を 直線ℓ を 軸に 1回転 させた 立体の 体積は？

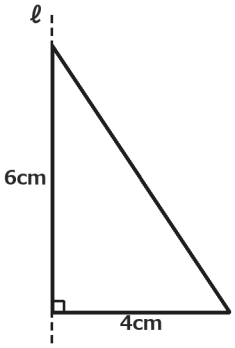

□ π cm³

④ 図形を 直線ℓ を 軸に 1回転 させた 立体の 体積は？

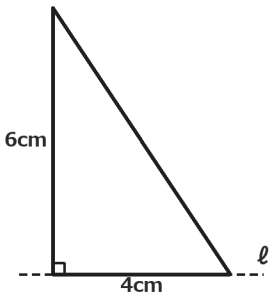

□ π cm³

⑤ 図形を 直線ℓ を 軸に 1回転 させた 立体の 体積は？

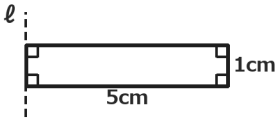

□ π cm³

⑥ 図形を 直線ℓ を 軸に 1回転 させた 立体の 体積は？

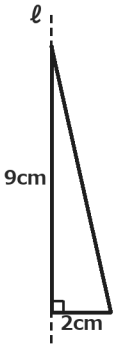

□ π cm³

いちごドリル プリント

つづきの無料プリント
「空間図形」のプリント一覧がひらきます