位置関係の まちがい直し ドリル④

なまえ ＿＿＿＿＿＿＿＿

中1 空間図形／ドリル④ 5問／目標 12分

ひづけ ＿＿＿＿＿＿＿＿

・友だちの 答えを 読んで、まちがいを 見つけて 直す
・□ に 辺や 面の 名前・数を 書く。ア・イ… は 正しい ものを ○ で かこむ

① 問題「直方体で 辺CG と ねじれの 位置に ある 辺を 全部 書く」に、
Aさんは 「AB・AD・AE・EF・EH」と 答えた。
まちがって 入れた 辺と、正しい 本数は？

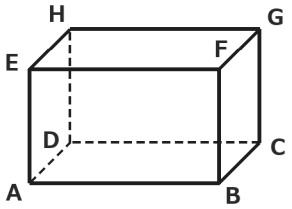

辺 □ 本数 □ 本

② 問題「辺AB と 平行な 面を 全部」に、Bさんは 「面DCGH」だけ 答えた。
足りない 面と、正しい 面の 数は？

面 □ 正しい 数 □ こ

③ 三角柱 ABC-DEF で、辺BE と ねじれの 位置に ある 辺を
Cさんは 「AC・DF・AD」と 答えた。
まちがって 入れた 辺と、正しい 本数は？

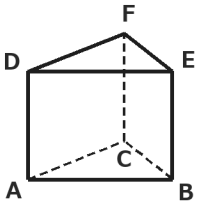

辺 □ 本数 □ 本

④ Dさん「右の 四角錐台で、辺AE と 辺DH は 交わらない ので ねじれの 位置」。
正しい 関係は？

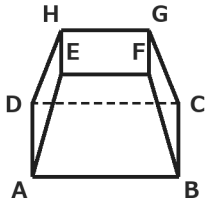

ア 平行　　イ 交わる　　ウ ねじれの 位置

⑤ Eさん「直線ℓ は 平面P上の 直線m に 垂直。だから ℓ は P に 垂直」。
この 考えの まちがいは？

ア P上の 交わる 2直線に 垂直か 確かめて いない

イ ℓ と m が 平行か 確かめて いない

ウ P と m が 垂直か 確かめて いない

いちごドリル プリント

つづきの無料プリント
「空間図形」のプリント一覧がひらきます