角の大きさ はじめのテスト

8つのつまずきをチェック

なまえ ＿＿＿＿＿＿＿＿

ひづけ ＿＿＿＿＿＿＿＿

・答えの数を□に書きましょう。単位は□の右に書いてあります
・記号の問題は、ア・イ・ウの記号を□に書きましょう
・図の分度器は、5度ごとに目もりの線があります

① 分度器の目もりを読みます。
角アは何度ですか。

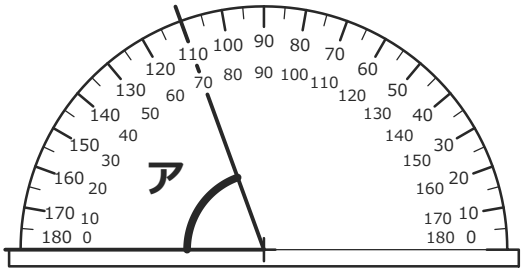

□ 度

② 分度器を図のようにあてました。
角アは何度ですか。

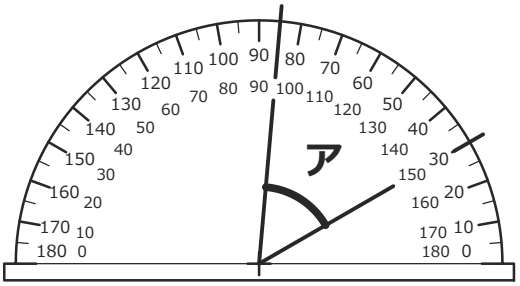

□ 度

③ 小さいほうの角イは110度です。
大きいほうの角アは何度ですか。

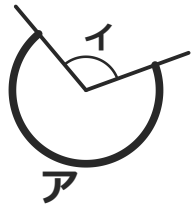

□ 度

④ いちばん大きい角はどれですか。
ア・イ・ウから選びましょう。

□



⑤ 直線の上に、3つの角があります。
角アは何度ですか。

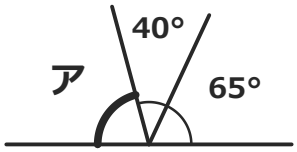

□ 度

⑥ 分度器のあて方が正しいものを
選びましょう。

□

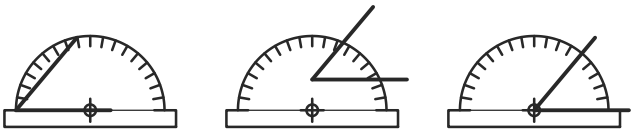

⑦ 2まいの三角じょうぎを、図のように
ならべました。角アは何度ですか。



□ 度

⑧ 2まいの三角じょうぎを重ねました。
点線は2まいめです。角アは何度ですか。

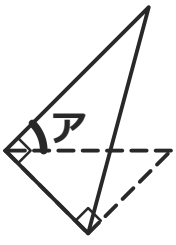

□ 度

いちごドリル プリント

つづきの無料プリント
「角の大きさ」のプリント一覧がひらきます

角の大きさ ×だけ練習①(分度器で読む)

分度器のあて方と目もりの読み方をもう一度

なまえ ＿＿＿＿＿＿＿＿

ひづけ ＿＿＿＿＿＿＿＿

・答えの数を□に書きましょう。単位は□の右にあります
・記号の問題は、ア・イ・ウの記号を□に書きましょう
・外側の数は右が0、内側の数は左が0です。目もりの線は5度ごとです

① 分度器の目もりを読みます。
角アは何度ですか。

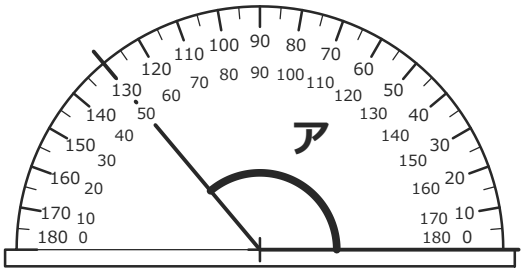

□ **度**

② 分度器を図のようにあてました。
角アは何度ですか。

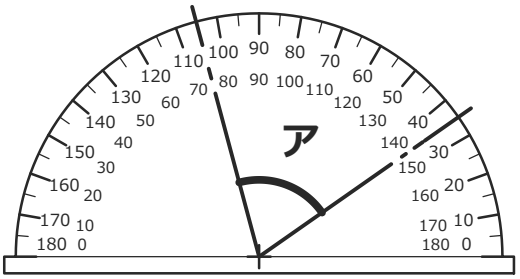

□ **度**

③ 分度器を図のようにあてました。
角アは何度ですか。

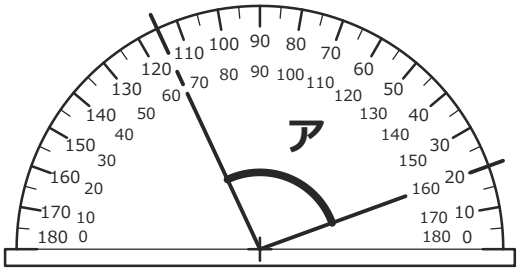

□ **度**

④ 分度器の目もりを読みます。
角アは何度ですか。

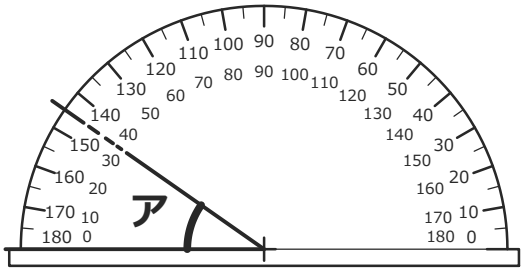

□ **度**

⑤ 分度器のあて方が正しいものを
選びましょう。 □

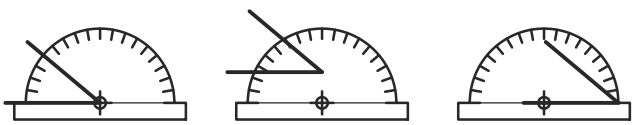

ア　イ　ウ

⑥ 分度器のあて方が正しいものを
選びましょう。 □

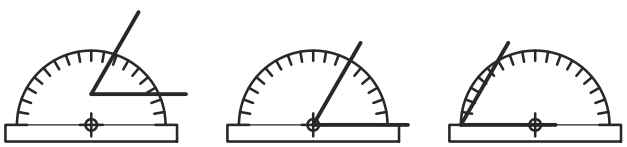

ア　イ　ウ

いちごドリル プリント

つづきの無料プリント
「角の大きさ」のプリント一覧がひらきます

角の大きさ ×だけ練習②(大きい角と一直線)

なまえ ＿＿＿＿＿＿＿＿

180度をこえる角と、まわりの角の和をもう一度

ひづけ ＿＿＿＿＿＿＿＿

・答えの数を□に書きましょう。単位は□の右にあります
・1回転は360度、一直線は180度、直角は90度です

① 直角の中に、3つの角があります。
角アは何度ですか。

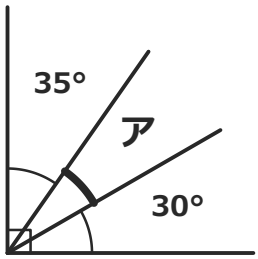

□ 度

② 小さいほうの角イは130度です。
大きいほうの角アは何度ですか。

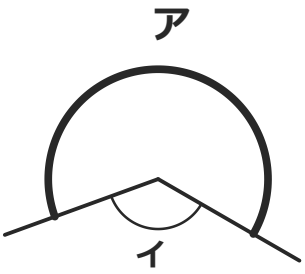

□ 度

③ 点線は、まっすぐにのばした線です。
角イは60度です。角アは何度ですか。

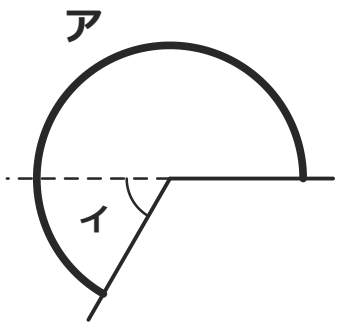

□ 度

④ 直線の上に、3つの角があります。
角アは何度ですか。

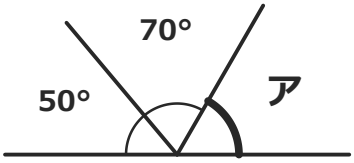

□ 度

⑤ 直線の上に、3つの角があります。
角アは何度ですか。

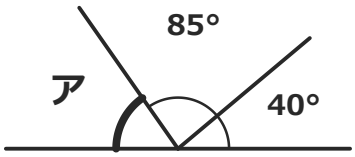

□ 度

⑥ 小さいほうの角イは80度です。
大きいほうの角アは何度ですか。

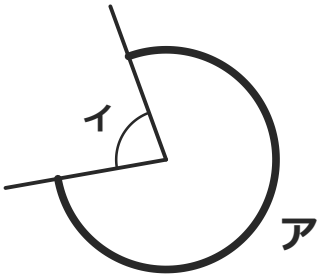

□ 度

いちごドリル プリント

つづきの無料プリント
「角の大きさ」のプリント一覧がひらきます

角の大きさ ×だけ練習③(くらべ方と三角じょうぎ)

なまえ ＿＿＿＿＿＿＿＿

角のくらべ方と、三角じょうぎの角をもう一度

ひづけ ＿＿＿＿＿＿＿＿

・答えの数を□に書きましょう。単位は□の右にあります
・記号の問題は、ア・イ・ウの記号を□に書きましょう
・三角じょうぎの角は、45度・45度・90度のものと、30度・60度・90度のものがあります

① 2まいの三角じょうぎを、図のように ならべました。角アは何度ですか。

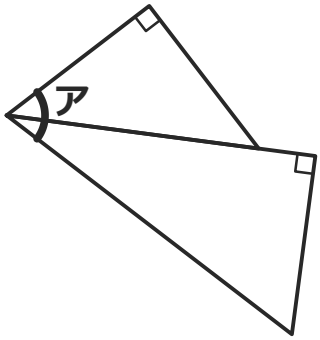

□ 度

② いちばん大きい角はどれですか。 ア・イ・ウから選びましょう。 □

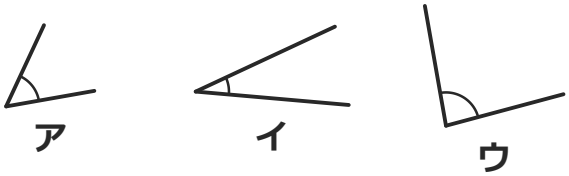

③ 2まいの三角じょうぎを重ねました。 点線は2まいめです。角アは何度ですか。

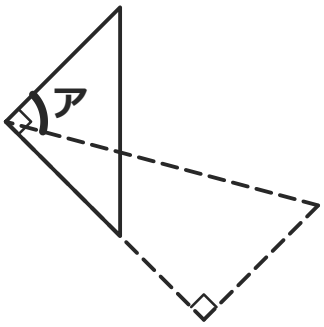

□ 度

④ 2まいの三角じょうぎを、図のように ならべました。角アは何度ですか。

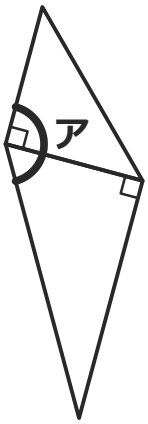

□ 度

⑤ いちばん大きい角はどれですか。 ア・イ・ウから選びましょう。 □



⑥ 同じ三角じょうぎ2まいを重ねました。 点線は2まいめです。角アは何度ですか。

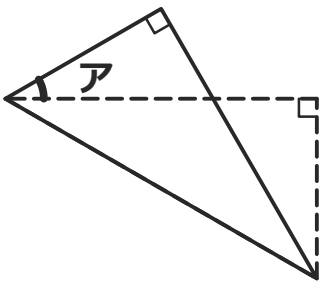

□ 度

いちごドリル プリント

つづきの無料プリント
「角の大きさ」のプリント一覧がひらきます

角の大きさ まとめテスト

8つのつまずきを、ぜんぶチェック

なまえ ＿＿＿＿＿＿＿＿

ひづけ ＿＿＿＿＿＿＿＿

・答えの数か、ア・イ・ウの記号を□に書きましょう。単位は□の右にあります
・図の分度器は、5度ごとに目もりの線があります

① 分度器を図のようにあてました。
角アは何度ですか。

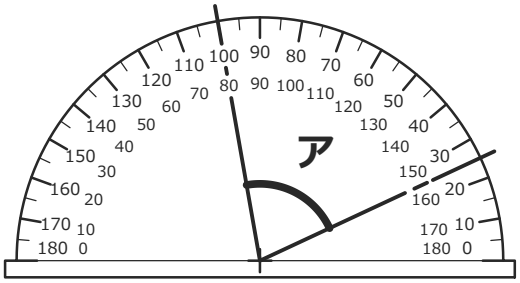

□ 度

② 分度器の目もりを読みます。
角アは何度ですか。

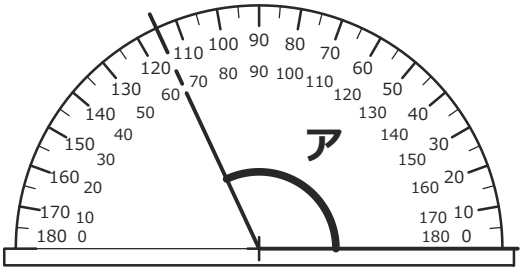

□ 度

③ 直線の上に、3つの角があります。
角アは何度ですか。

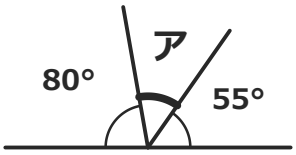

□ 度

④ 分度器のあて方が正しいものを
選びましょう。

□

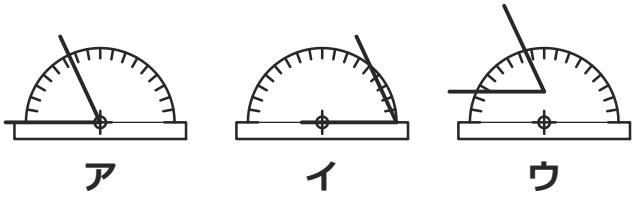

⑤ いちばん大きい角はどれですか。
ア・イ・ウから選びましょう。

□

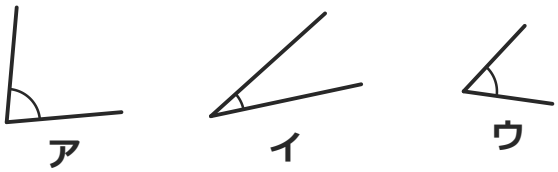

⑥ 点線は、まっすぐにのばした線です。
角イは65度です。角アは何度ですか。

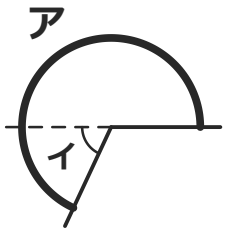

□ 度

⑦ 2まいの三角じょうぎを重ねました。
点線は2まいめです。角アは何度ですか。

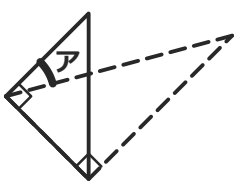

□ 度

⑧ 2まいの三角じょうぎを、図のように
ならべました。角アは何度ですか。

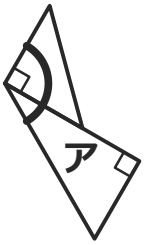

□ 度

いちごドリル プリント

つづきの無料プリント
「角の大きさ」のプリント一覧がひらきます