角の大きさ まとめテスト

8つのつまずきを、ぜんぶチェック

なまえ ＿＿＿＿＿＿＿＿

ひづけ ＿＿＿＿＿＿＿＿

・答えの数か、ア・イ・ウの記号を□に書きましょう。単位は□の右にあります
・図の分度器は、5度ごとに目もりの線があります

① 分度器を図のようにあてました。
角アは何度ですか。

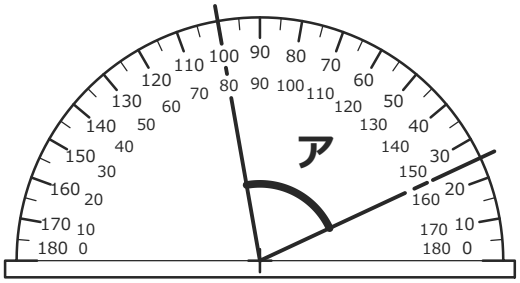

□ 度

② 分度器の目もりを読みます。
角アは何度ですか。

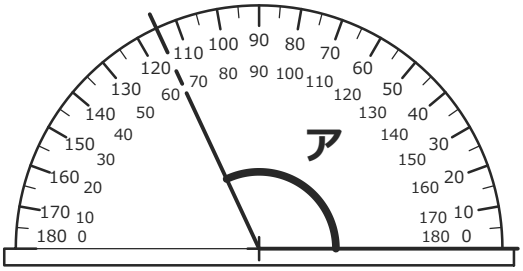

□ 度

③ 直線の上に、3つの角があります。
角アは何度ですか。

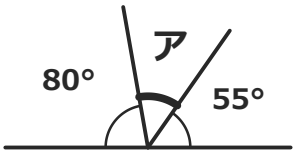

□ 度

④ 分度器のあて方が正しいものを
選びましょう。

□

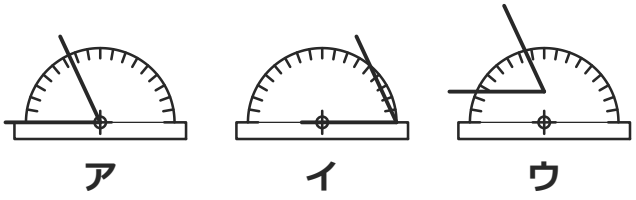

⑤ いちばん大きい角はどれですか。
ア・イ・ウから選びましょう。

□

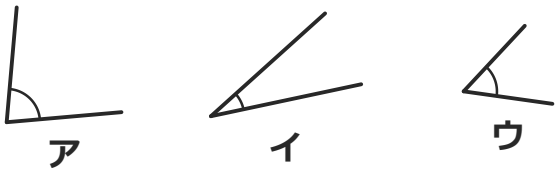

⑥ 点線は、まっすぐにのばした線です。
角イは65度です。角アは何度ですか。

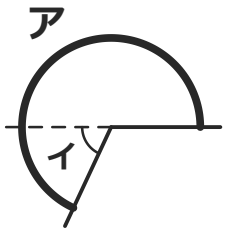

□ 度

⑦ 2まいの三角じょうぎを重ねました。
点線は2まいめです。角アは何度ですか。

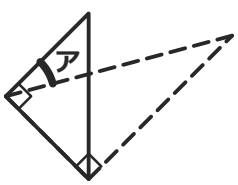

□ 度

⑧ 2まいの三角じょうぎを、図のように
ならべました。角アは何度ですか。

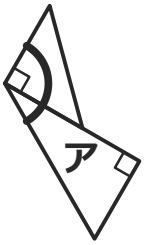

□ 度

いちごドリル プリント

つづきの無料プリント
「角の大きさ」のプリント一覧がひらきます