角の大きさ ×だけ練習③(くらべ方と三角じょうぎ)

なまえ ＿＿＿＿＿＿＿＿

角のくらべ方と、三角じょうぎの角をもう一度

ひづけ ＿＿＿＿＿＿＿＿

・答えの数を□に書きましょう。単位は□の右にあります
・記号の問題は、ア・イ・ウの記号を□に書きましょう
・三角じょうぎの角は、45度・45度・90度のものと、30度・60度・90度のものがあります

① 2まいの三角じょうぎを、図のように ならべました。角アは何度ですか。

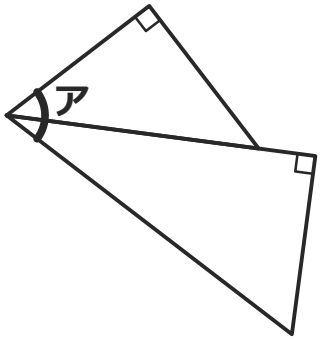

□ 度

② いちばん大きい角はどれですか。 ア・イ・ウから選びましょう。 □

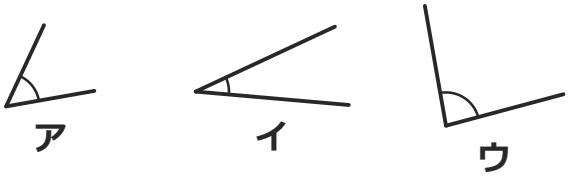

③ 2まいの三角じょうぎを重ねました。 点線は2まいめです。角アは何度ですか。

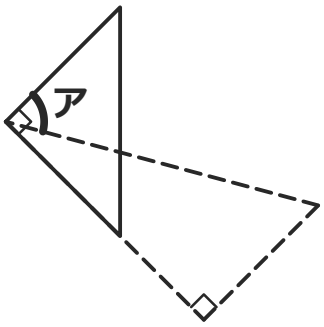

□ 度

④ 2まいの三角じょうぎを、図のように ならべました。角アは何度ですか。

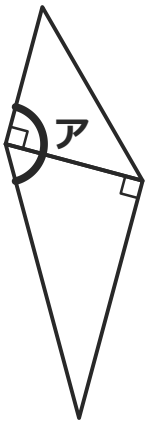

□ 度

⑤ いちばん大きい角はどれですか。 ア・イ・ウから選びましょう。 □



⑥ 同じ三角じょうぎ2まいを重ねました。 点線は2まいめです。角アは何度ですか。

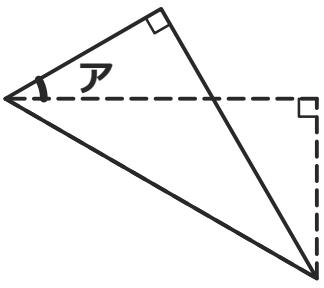

□ 度

いちごドリル プリント

つづきの無料プリント
「角の大きさ」のプリント一覧がひらきます