角の大きさ ×だけ練習②(大きい角と一直線)

なまえ ＿＿＿＿＿＿＿＿

180度をこえる角と、まわりの角の和をもう一度

ひづけ ＿＿＿＿＿＿＿＿

・答えの数を□に書きましょう。単位は□の右にあります
・1回転は360度、一直線は180度、直角は90度です

① 直角の中に、3つの角があります。
角アは何度ですか。

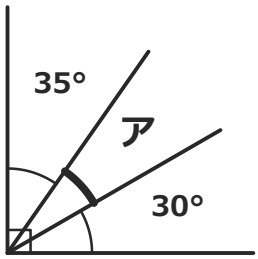

□ 度

② 小さいほうの角イは130度です。
大きいほうの角アは何度ですか。

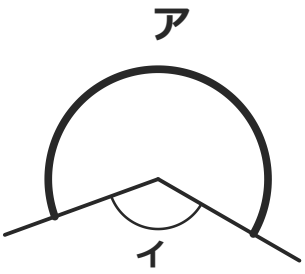

□ 度

③ 点線は、まっすぐにのばした線です。
角イは60度です。角アは何度ですか。

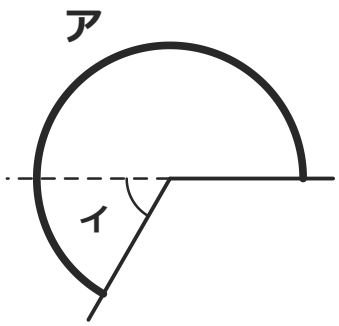

□ 度

④ 直線の上に、3つの角があります。
角アは何度ですか。

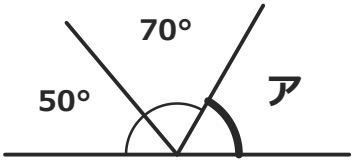

□ 度

⑤ 直線の上に、3つの角があります。
角アは何度ですか。

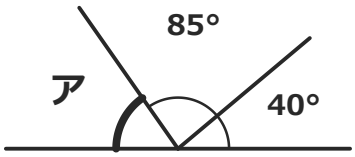

□ 度

⑥ 小さいほうの角イは80度です。
大きいほうの角アは何度ですか。

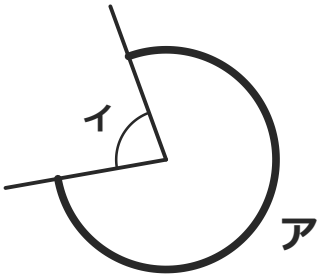

□ 度

いちごドリル プリント

つづきの無料プリント
「角の大きさ」のプリント一覧がひらきます