角の大きさ ×だけ練習①(分度器で読む)

分度器のあて方と目もりの読み方をもう一度

なまえ ＿＿＿＿＿＿＿＿

ひづけ ＿＿＿＿＿＿＿＿

・答えの数を□に書きましょう。単位は□の右にあります
・記号の問題は、ア・イ・ウの記号を□に書きましょう
・外側の数は右が0、内側の数は左が0です。目もりの線は5度ごとです

① 分度器の目もりを読みます。
角アは何度ですか。

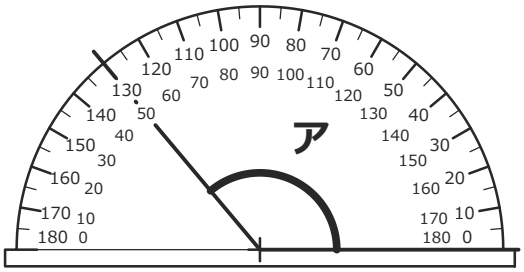

□ **度**

② 分度器を図のようにあてました。
角アは何度ですか。

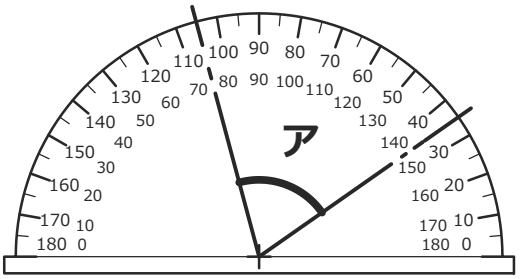

□ **度**

③ 分度器を図のようにあてました。
角アは何度ですか。

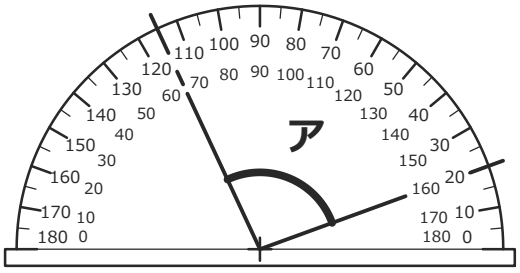

□ **度**

④ 分度器の目もりを読みます。
角アは何度ですか。

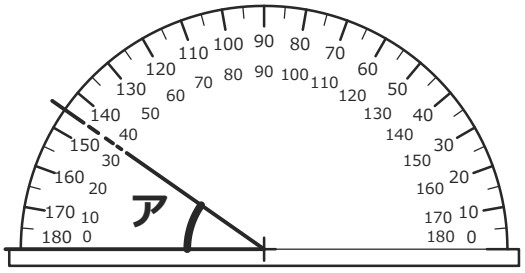

□ **度**

⑤ 分度器のあて方が正しいものを
選びましょう。 □

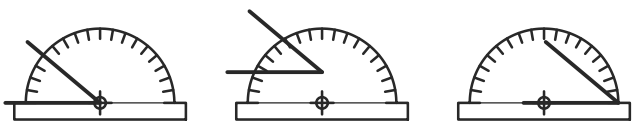

ア　イ　ウ

⑥ 分度器のあて方が正しいものを
選びましょう。 □

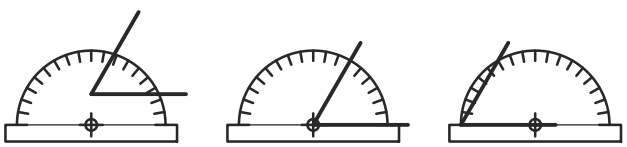

ア　イ　ウ

いちごドリル プリント

つづきの無料プリント
「角の大きさ」のプリント一覧がひらきます

角の大きさ ×だけ練習①(分度器で読む)【こたえ】

なまえ ＿＿＿＿＿＿＿＿＿＿

分度器のあて方と目もりの読み方をもう一度

ひづけ ＿＿＿＿＿＿＿＿＿＿

① **130** 度

考え方 右の辺が0の線に重なっている。0から数えて外側の目もりを読む。130度

→ 50度とする誤答に注意。50は、もう一方の目もりを読んだ値。まず0の線に重なっている辺を見つけて、そこから数える。

② **70** 度

考え方 2つの辺の目もりは、同じがわの数で読んで35と105。0の線に合っていないので、差を求める。105−35＝70（度）

→ 105度とする誤答に注意。105は片方の辺が指す目もり。もう一方の辺が35を指しているので、105−35で求める。

③ **95** 度

考え方 2つの辺の目もりは、同じがわの数で読んで20と115。0の線に合っていないので、差を求める。115−20＝95（度）

→ 115度とする誤答に注意。115は片方の辺が指す目もり。もう一方の辺が20を指しているので、115−20で求める。

④ **35** 度

考え方 左の辺が0の線に重なっている。0から数えて内側の目もりを読む。35度

→ 145度とする誤答に注意。145は、もう一方の目もりを読んだ値。まず0の線に重なっている辺を見つけて、そこから数える。

⑤ **ア**

考え方 分度器の中心の印を頂点に合わせ、0の線を辺に重ねているのはア

→ イは頂点が分度器の中心の印より上にういている、ウは頂点が分度器の左右のはしにある。分度器の中心を、角の頂点にぴったり合わせる。

⑥ **イ**

考え方 分度器の中心の印を頂点に合わせ、0の線を辺に重ねているのはイ

→ アは頂点が分度器の中心の印より上にういている、ウは頂点が分度器の左右のはしにある。分度器の中心を、角の頂点にぴったり合わせる。

ぜんぶできたら、まとめテストにちょうせんしましょう。