角の大きさ ×だけ練習①(分度器で読む)

分度器のあて方と目もりの読み方をもう一度

なまえ ＿＿＿＿＿＿＿＿

ひづけ ＿＿＿＿＿＿＿＿

・答えの数を□に書きましょう。単位は□の右にあります
・記号の問題は、ア・イ・ウの記号を□に書きましょう
・外側の数は右が0、内側の数は左が0です。目もりの線は5度ごとです

① 分度器の目もりを読みます。
角アは何度ですか。

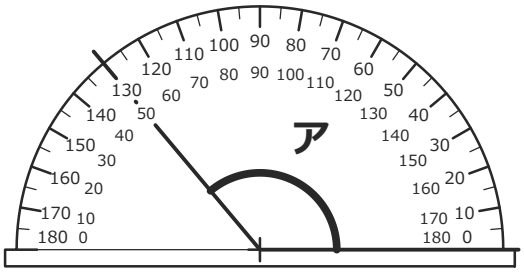

□ **度**

② 分度器を図のようにあてました。
角アは何度ですか。

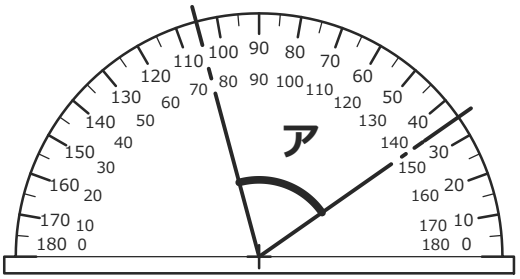

□ **度**

③ 分度器を図のようにあてました。
角アは何度ですか。

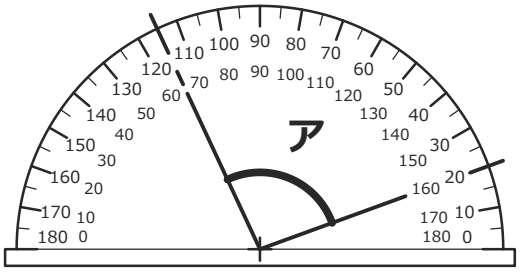

□ **度**

④ 分度器の目もりを読みます。
角アは何度ですか。

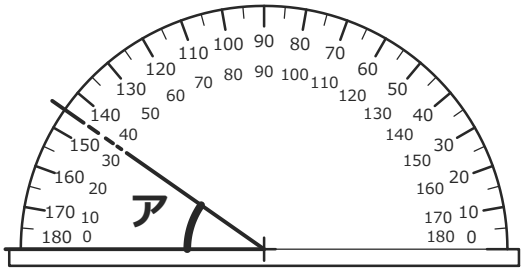

□ **度**

⑤ 分度器のあて方が正しいものを
選びましょう。 □

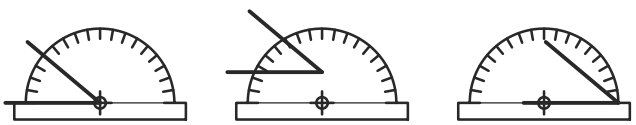

ア　イ　ウ

⑥ 分度器のあて方が正しいものを
選びましょう。 □

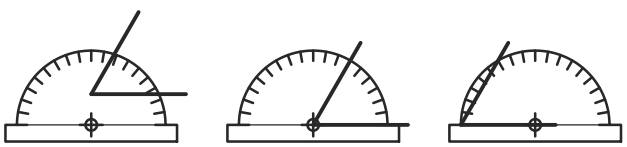

ア　イ　ウ

いちごドリル プリント

つづきの無料プリント
「角の大きさ」のプリント一覧がひらきます