三角形の 面積 ドリル④

なまえ ＿＿＿＿＿＿＿＿

ひづけ ＿＿＿＿＿＿＿＿

中2／ドリル 項目8 ④（面積）／目標 15分

・2直線と y軸で かこまれた 三角形の、交点・底辺・高さ・面積を 四角に 書く。
・底辺は y軸上の 2つの 切片の 間、高さは 交点の x 座標の 大きさ。方眼の 1目もりは 1。

大問1 2直線と y軸で かこまれた 三角形

(1)

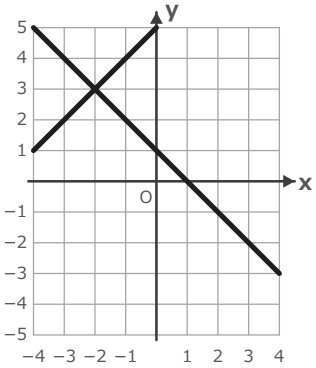

y = x + 5、y = −x + 1、
y軸で かこまれた 三角形

交点 ＿＿＿＿　底辺（y軸上） ＿＿＿＿

高さ ＿＿＿＿　面積 ＿＿＿＿

(2)

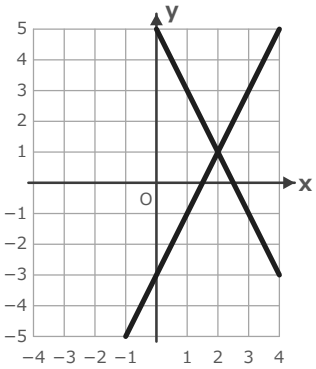

y = 2x − 3、y = −2x + 5、
y軸で かこまれた 三角形

交点 ＿＿＿＿　底辺（y軸上） ＿＿＿＿

高さ ＿＿＿＿　面積 ＿＿＿＿

(3)

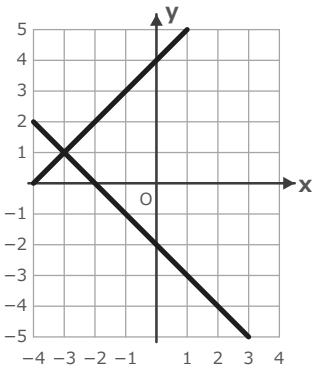

y = x + 4、y = −x − 2、
y軸で かこまれた 三角形

交点 ＿＿＿＿　底辺（y軸上） ＿＿＿＿

高さ ＿＿＿＿　面積 ＿＿＿＿

いちごドリル プリント

つづきの無料プリント
「一次関数」のプリント一覧がひらきます