軸との 交点から かく ドリル③

中2／ドリル 項目7 ③（かく）／目標 12分

なまえ ＿＿＿＿＿＿＿＿

ひづけ ＿＿＿＿＿＿＿＿

・y軸・x軸と 交わる 点の 座標を 四角に 書き、その 2点を 通る 直線を 方眼に 定規で かく。
・方眼の 1目もりは 1。

大問1 軸との 交点から かく

(1) **x + 2y = 4**

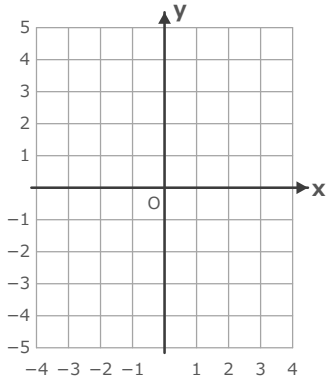

y軸と

x軸と

(2) **3x − y = 3**

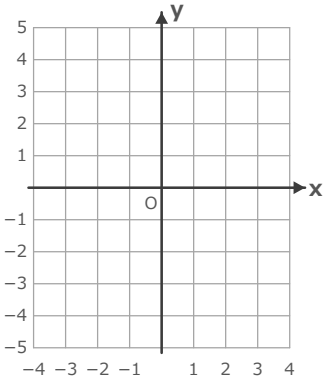

y軸と

x軸と

(3) **2x + 3y = −6**

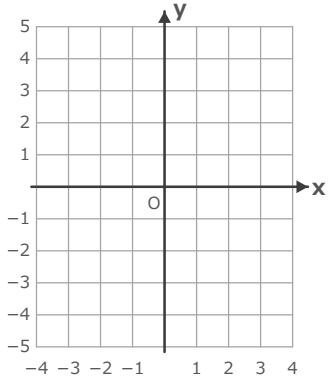

y軸と

x軸と

(4) **4x − 3y = 12**

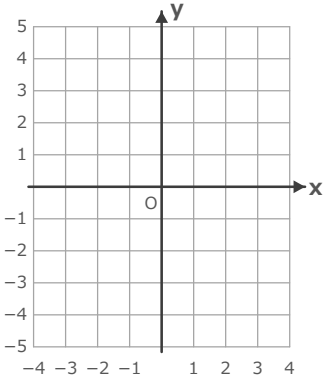

y軸と

x軸と

(5) **x − 2y = −4**

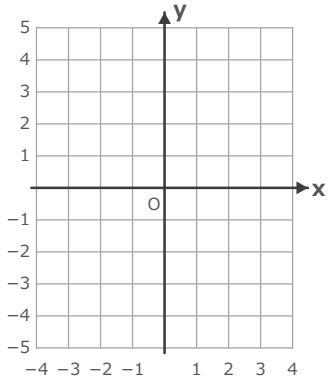

y軸と

x軸と

(6) **5x + 2y = 10**

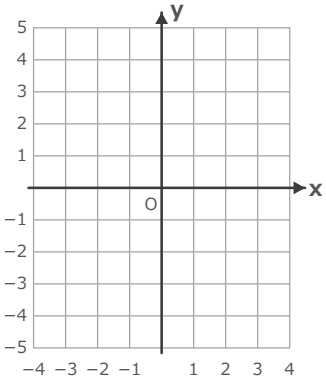

y軸と

x軸と

いちごドリル プリント

つづきの無料プリント
「一次関数」のプリント一覧がひらきます