負の 傾きの グラフ ドリル②

中2／ドリル 項目3 ②（かく・負の傾き）／目標 12分

なまえ ＿＿＿＿＿＿＿＿

ひづけ ＿＿＿＿＿＿＿＿

・切片から 右へ 1 進んだ 点の y を 四角に 書いてから、方眼に 直線を 定規で かく。
・方眼の 1目もりは 1。

大問1 グラフを かく

(1) 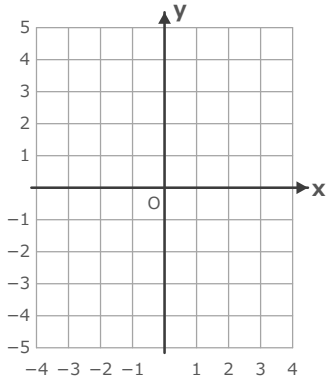

y = −2x + 3
を かく。
x = 1 の とき y =

(2) 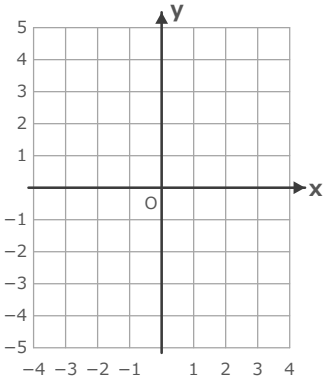

y = 1 − x
を かく。
x = 1 の とき y =

(3) 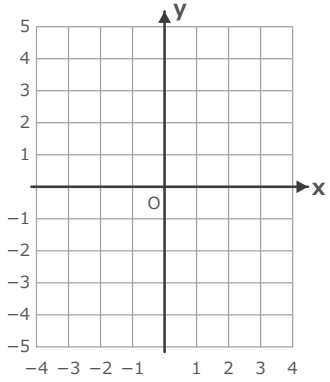

y = −3x − 1
を かく。
x = 1 の とき y =

(4) 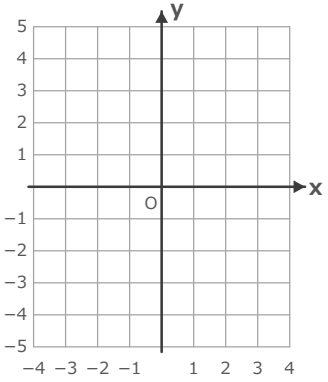

y = 2 − 4x
を かく。
x = 1 の とき y =

(5) 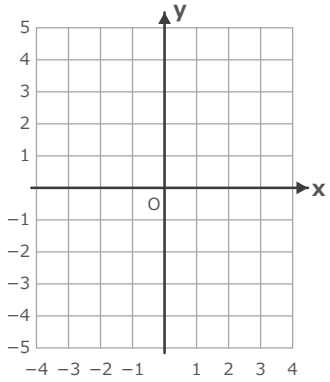

y = −2x − 2
を かく。
x = 1 の とき y =

(6) 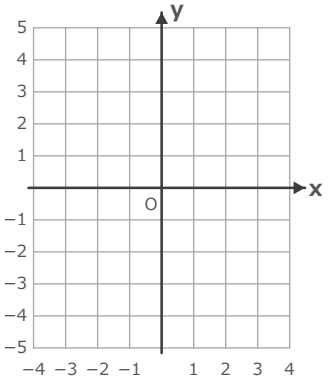

y = 3 − 3x
を かく。
x = 1 の とき y =

いちごドリル プリント

つづきの無料プリント
「一次関数」のプリント一覧がひらきます