県庁所在地から 見た ほうい①

小3〜小5／●と ●を 線で むすんで ほういを 答えよう

なまえ ＿＿＿＿＿＿＿＿

ひづけ ＿＿＿＿＿＿＿＿

●は 県庁所在地の 場所です（名前の「市」は 省いて います）。地図の 上が 北です。
ほういは 右の ほういカードの 8つの 中から、いちばん 近い 矢印の ほういで 答えます。

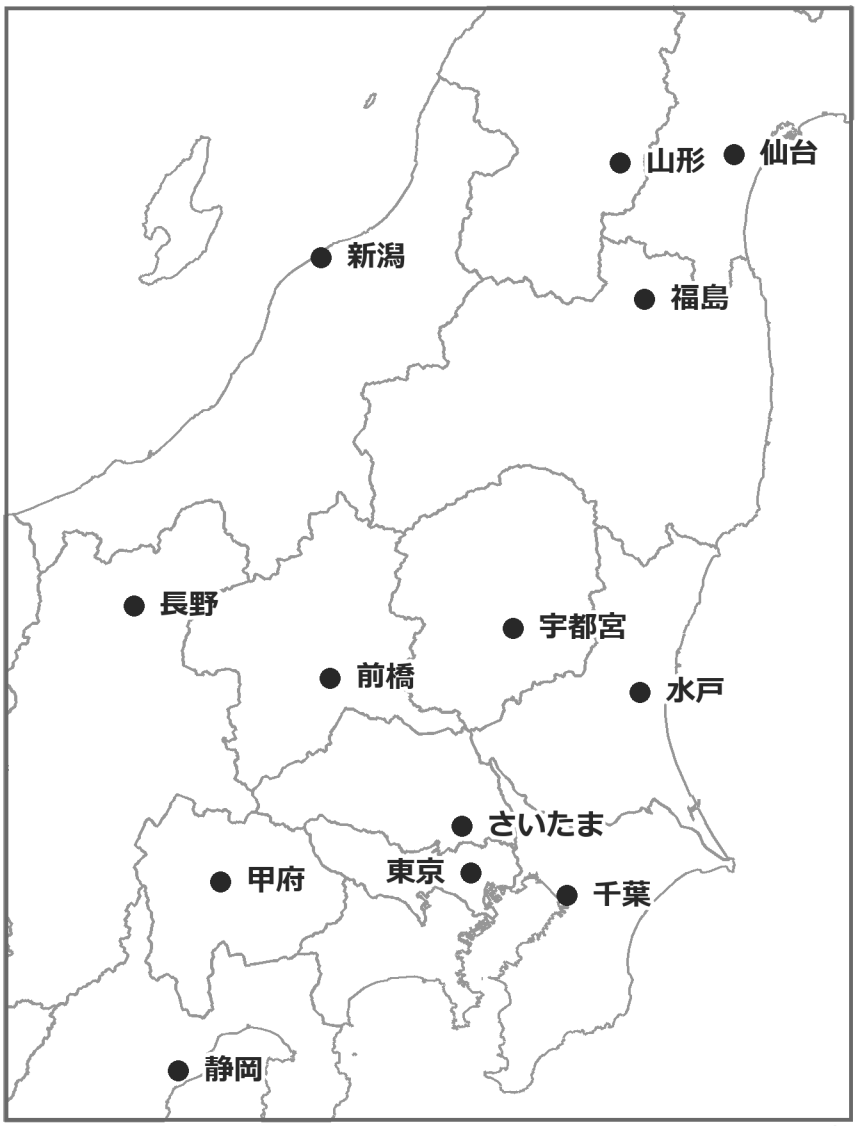

出典：地球地図日本（国土地理院）

ほういカード

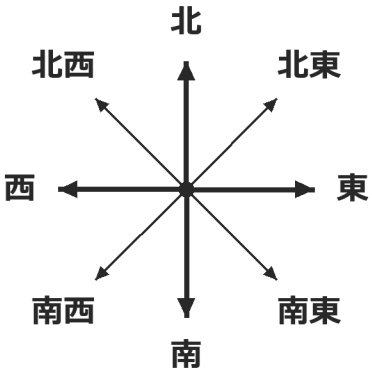

ほうい の 見つけ方

① 基準の ●から 目てきの ●まで 線を ひく。

② 線の 向きに いちばん 近い 矢印の ほういを 答える。

① 新潟から 見て、水戸は どの ほうい ですか。

② 水戸から 見て、新潟は どの ほうい ですか。

③ 福島から 見て、前橋は どの ほうい ですか。

④ 東京から 見て、南西に ある 県庁所在地を ぜんぶ 書きましょう。

⑤ 水戸から 見て、北に ある 県庁所在地を ぜんぶ 書きましょう。

いちごドリル プリント

つづきの無料プリント
「日本の白地図」のプリント一覧がひらきます

県庁所在地から 見た ほうい①【こたえ】

小3〜小5／●と ●を 線で むすんで ほういを 答えよう

なまえ ＿＿＿＿＿＿＿＿

ひづけ ＿＿＿＿＿＿＿＿

●は 県庁所在地の 場所です（名前の「市」は 省いて います）。地図の 上が 北です。
ほういは 右の ほういカードの 8つの 中から、いちばん 近い 矢印の ほういで 答えます。

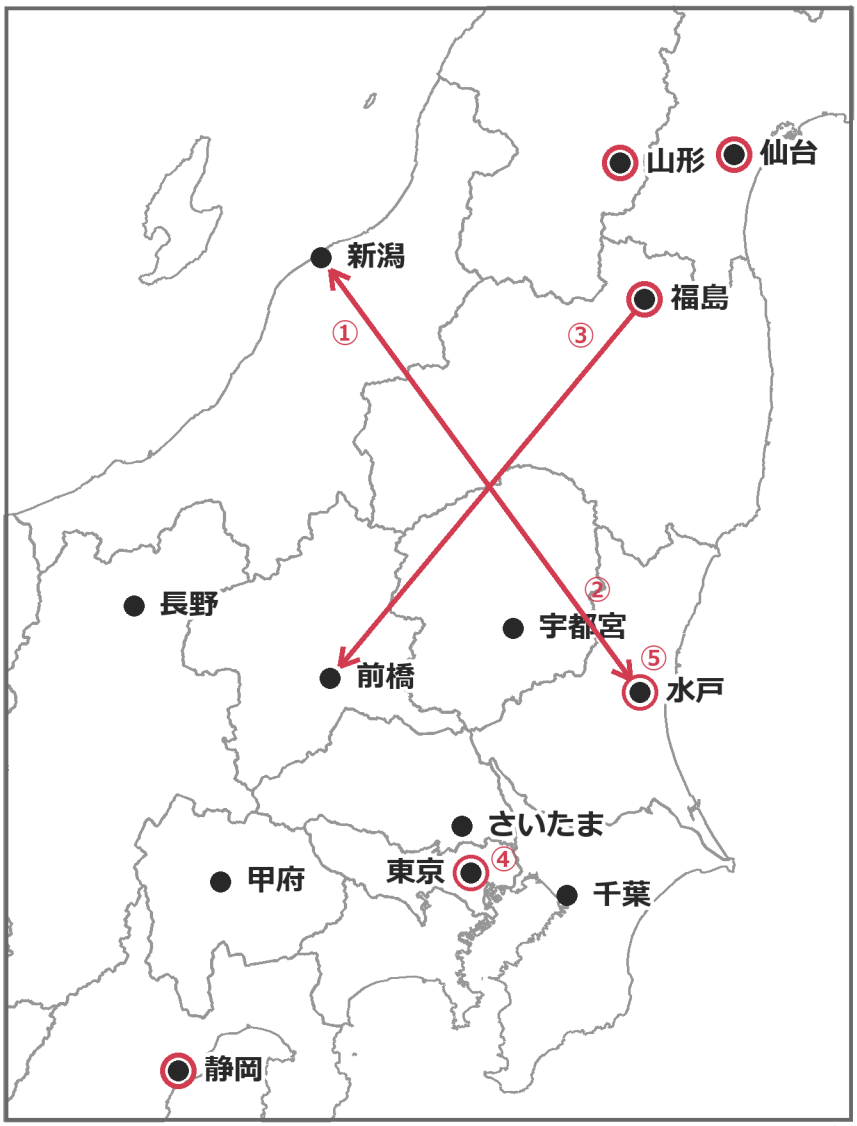

出典：地球地図日本（国土地理院）

ほういカード

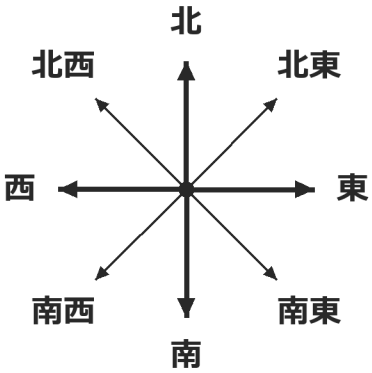

ほうい の 見つけ方

① 基準の ●から 目てきの ●まで 線を ひく。

② 線の 向きに いちばん 近い 矢印の ほういを 答える。

① 新潟から 見て、水戸は どの ほうい ですか。

南東

② 水戸から 見て、新潟は どの ほうい ですか。

北西

③ 福島から 見て、前橋は どの ほうい ですか。

南西

④ 東京から 見て、南西に ある 県庁所在地を ぜんぶ 書きましょう。

静岡

⑤ 水戸から 見て、北に ある 県庁所在地を ぜんぶ 書きましょう。

仙台　山形　福島

第2問は 第1問と 同じ 2つの ●。基準が かわると ほういは 反対に なる。
第4・5問は、基準の ●と 答えの ●を 赤い 輪で かこんで います。

いちごドリル プリント