診断テスト［B］

なまえ ＿＿＿＿＿＿＿＿

中2／直ったか 確かめる 20問／目標 20分

ひづけ ＿＿＿＿＿＿＿＿

・［A］で ×だった 小単元を 練習した あと、20問で 確かめる。答えを □ に書く。計算は 別の紙で。
・角度・長さは 数だけ 書く（「°」「cm」は 書かない）。図は 測らず、書いてある 数で 考える。
・ア・イ・ウ から 選ぶ 問題は、正しい 記号を ○ でかこむ。

① **図の ∠a と ∠b は どんな 角の 組？**

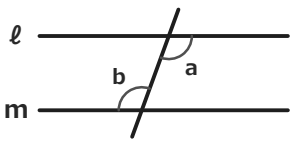

ア 錯角　イ 同位角
ウ 対頂角

② **3直線が 1点で 交わる。∠x は 何度？**

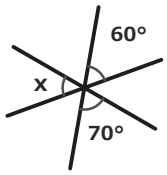

□

③ **ℓ と m は 平行では ない。∠a=115° のとき、∠b は？**

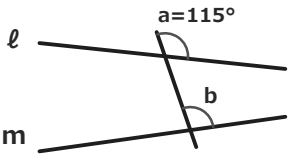

ア 65°　イ 決まらない
ウ 115°

④ **ℓ∥m の とき、∠x は 何度？**

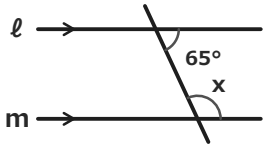

□

⑤ **2直線 ℓ と m に 1本の 直線が 交わり、錯角 ∠c=∠d。ℓ∥m を 示す 書き方は？**

ア ℓ∥m より ∠c=∠d（錯角は 等しい）
イ ∠c=∠d（錯角が 等しい）から ℓ∥m

⑥ **ℓ∥m の 間の 折れ線。∠x は 何度？**

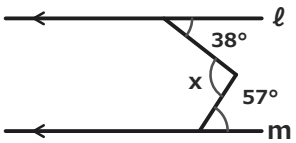

□

⑦ **辺BCを のばした。∠x は 何度？**

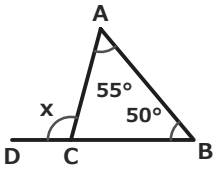

□

⑧ **△ABCで ∠A=25°、∠B=50°。△ABCは どんな 三角形？**

ア 鋭角三角形　イ 直角三角形　ウ 鈍角三角形

⑨ **九角形の 内角の和は 何度？**

□

⑩ **点Pと 頂点を むすんだ 八角形。内角の和は？**

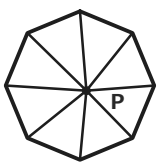

□

⑪ **五角形の 外角の和は 何度？**

□

⑫ **正九角形の 1つの 内角は 何度？**

□

⑬ **図の △ABCと△DEFは 合同。同じ 数の 弧の 角は 等しい。式は？**

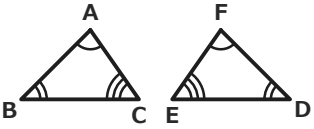

ア △ABC≡△DEF
イ △ABC≡△FDE

⑭ **△ABC≡△DEF。辺DEは 何cm？**

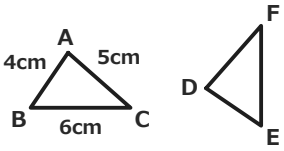

□

⑮ **△ABCと△DEFで、ア・イのように 等しい。合同と 言える のは どちら？**

ア AB=DE=6cm、BC=EF=4cm、∠B=∠E=35°
イ AB=DE=6cm、AC=DF=4cm、∠B=∠E=35°

⑯ **△ABCと△DEFで、BC=EF=8cm、∠B=∠D=45°、∠C=∠E=65°。合同と 言えるか？**

ア 言える　イ 言えない

⑰ **「∠a=∠b ならば ℓ∥m」の 結論は どちら？**

ア ∠a=∠b　イ ℓ∥m

⑱ **AB=AD、CB=CD。3組の 辺で △ABC≡△ADC を 示す。残る 1組は？**

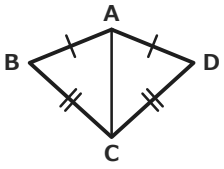

ア AC=CA　イ ほかには ない
ウ AB=CB

⑲ **△ABCと△DEFで、仮定は AB=DE、∠A=∠D、AC=DF。結論は BC=EF。△ABC≡△DEF の 根拠に 使えない のは？**

ア BC=EF　イ AB=DE　ウ ∠A=∠D

⑳ **AB と CD が O で 交わり、AO=BO、CO=DO。△AOC≡△ に 続く 3文字は？**

□

いちごドリル プリント

つづきの無料プリント
「平行と合同」のプリント一覧がひらきます