合同な図形 ×だけ練習①(対応と向き)

テストで×だった人へ:対応と向きの練習

なまえ ＿＿＿＿＿＿＿＿

ひづけ ＿＿＿＿＿＿＿＿

・答えを□に書きましょう（記号で答える問題もあります）
・同じ長さの辺、同じ大きさの角で対応を考えましょう
・方眼の図形は、回したり、うら返したりしてよい

① △ABCと△PQRは合同です。
ちょう点Cに対応するちょう点を、
P・Q・Rから選んで書きましょう。

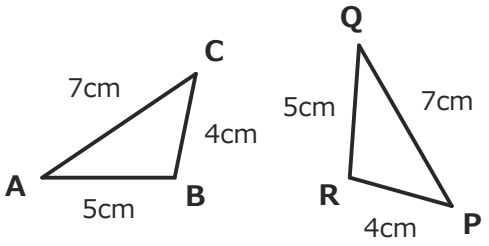

□

② △ABC≡△RPQのとき、
角Pは何度ですか。

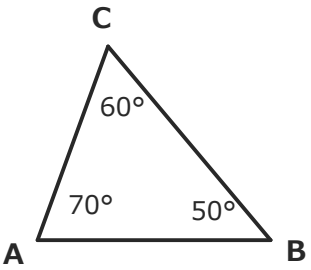

□ **度**

③ アと合同な図形を、イ・ウ・エから
選びましょう。方眼の1目もりは同じです。

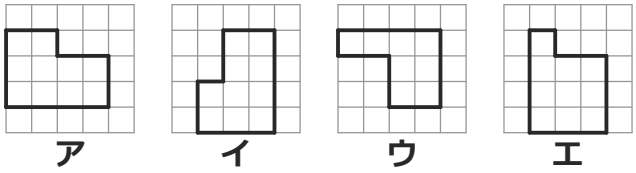

□

④ △ABCと△PQRは合同です。
角Bに対応する角を、角P・角Q・角Rから
選んで、ちょう点の記号を書きましょう。

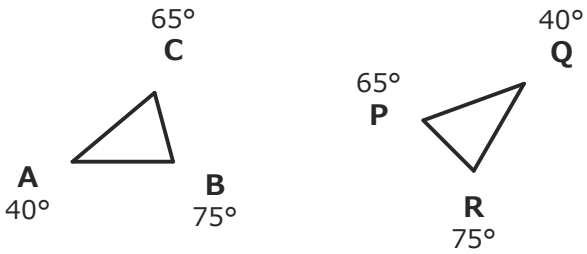

□

⑤ △ABC≡△TUSのとき、
辺STは何cmですか。

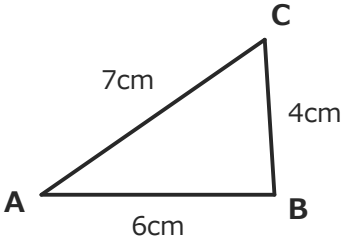

□ **cm**

⑥ アと合同な図形を、イ・ウ・エから
選びましょう。方眼の1目もりは同じです。

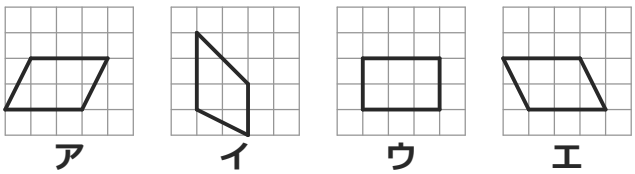

□

いちごドリル プリント

つづきの無料プリント
「合同な図形」のプリント一覧がひらきます