十と 一の くらいに わけて たそう①

2けたの たしざん（ずを みて わけて たす）

なまえ ＿＿＿＿＿＿＿＿

ひづけ ＿＿＿＿＿＿＿＿

・ぼうは 十、まるは 一。ひだりの ずと みぎの ずの ぼうと まるを かぞえよう。
・かぞえた かずを、ひだりの しき（十の くらい）と みぎの しき（一の くらい）の □に いれよう。
・ひだりの しきと みぎの しきの こたえを ならべて、うえの ＝の あとの □2つに いれよう。

れい 43 + 26 = 6 9



十の くらい　　一の くらい

4 + 2 = 6　　3 + 6 = 9

① 34 + 25 = □ □



十の くらい　　一の くらい

□ + □ = □　　□ + □ = □

② 15 + 32 = □ □



十の くらい　　一の くらい

□ + □ = □　　□ + □ = □

③ 52 + 21 = □ □



十の くらい　　一の くらい

□ + □ = □　　□ + □ = □

④ 61 + 27 = □ □

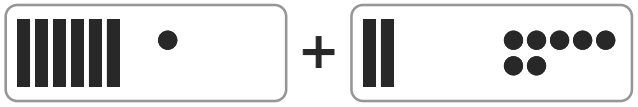

十の くらい　　一の くらい

□ + □ = □　　□ + □ = □

⑤ 23 + 71 = □ □



十の くらい　　一の くらい

□ + □ = □　　□ + □ = □

十と 一の くらいに わけて たそう②

2けたの たしざん（ずなしで わけて たす）

なまえ ＿＿＿＿＿＿＿＿

ひづけ ＿＿＿＿＿＿＿＿

・うえの しきの 2つの 2けたの かずを、それぞれ 十の くらいと 一の くらいに わけよう。
・れいの 52なら、5は ひだりの しき（十）の □、2は みぎの しき（一）の □に いれよう。
・ひだりの しきと みぎの しきの こたえを ならべて、うえの ＝の あとの □2つに いれよう。

れい **52 + 37 = 89**

十の くらい　　一の くらい

5 + 3 = 8　　2 + 7 = 9

① **41 + 26 = □□**

十の くらい　　一の くらい

□ + □ = □　　□ + □ = □

② **27 + 52 = □□**

十の くらい　　一の くらい

□ + □ = □　　□ + □ = □

③ **63 + 15 = □□**

十の くらい　　一の くらい

□ + □ = □　　□ + □ = □

④ **46 + 22 = □□**

十の くらい　　一の くらい

□ + □ = □　　□ + □ = □

⑤ **18 + 71 = □□**

十の くらい　　一の くらい

□ + □ = □　　□ + □ = □

いちごドリル プリント

つづきの無料プリント
「2けたのたしざん」のプリント一覧がひらきます

十と 一の くらいに わけて たそう③

2けたの たしざん（一の くらいが 10を こえる・ずつき）

なまえ ＿＿＿＿＿＿＿＿

ひづけ ＿＿＿＿＿＿＿＿

・ぼうは 十、まるは 一。ひだりの ずと みぎの ずを かぞえて、みぎの しきから たそう。
・10か 10より おおきく なったら、ひだりの しきの「くりあがり」の したの □に 1を いれよう。
・ひだりの しき（十の くらい）は、くりあがりの 1も いっしょに たして □に いれよう。
・うえの □2つに、ひだりの しきの こたえと みぎの しきの うしろの 1けた（13なら 3）を いれよう。

れい 38 + 25 = 6 3



十の くらい　くりあがり　一の くらい

3 + 2 + 1 = 6　　8 + 5 = 1 3

① 38 + 27 = □ □



十の くらい　くりあがり　一の くらい

□ + □ + □ = □　　□ + □ = □ □

② 17 + 58 = □ □



十の くらい　くりあがり　一の くらい

□ + □ + □ = □　　□ + □ = □ □

③ 45 + 37 = □ □



十の くらい　くりあがり　一の くらい

□ + □ + □ = □　　□ + □ = □ □

④ 29 + 43 = □ □

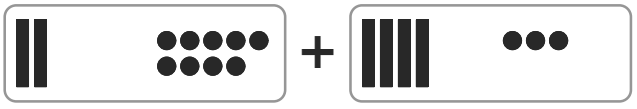

十の くらい　くりあがり　一の くらい

□ + □ + □ = □　　□ + □ = □ □

⑤ 64 + 28 = □ □



十の くらい　くりあがり　一の くらい

□ + □ + □ = □　　□ + □ = □ □

十と 一の くらいに わけて たそう④

2けたの たしざん（一の くらいが 10か 10より おおきい・ずなし）

なまえ ＿＿＿＿＿＿＿＿

ひづけ ＿＿＿＿＿＿＿＿

・ずは ないよ。うえの しきの 2つの 2けたの かずを わけて、みぎの しきから たそう。
・10か 10より おおきく なったら、ひだりの しきの「くりあがり」の したの □に 1を いれよう。
・ひだりの しき（十の くらい）は、くりあがりの 1も いっしょに たして □に いれよう。
・うえの □2つに、ひだりの しきの こたえと みぎの しきの うしろの 1けた（13なら 3）を いれよう。

れい **46 + 27 = 73**

十の くらい　くりあがり　一の くらい

4 + 2 + 1 = 7　　6 + 7 = 13

① **57 + 38 = □□**

十の くらい　くりあがり　一の くらい

□ + □ + □ = □　　□ + □ = □□

② **19 + 23 = □□**

十の くらい　くりあがり　一の くらい

□ + □ + □ = □　　□ + □ = □□

③ **24 + 56 = □□**

十の くらい　くりあがり　一の くらい

□ + □ + □ = □　　□ + □ = □□

④ **78 + 15 = □□**

十の くらい　くりあがり　一の くらい

□ + □ + □ = □　　□ + □ = □□

⑤ **28 + 43 = □□**

十の くらい　くりあがり　一の くらい

□ + □ + □ = □　　□ + □ = □□

いちごドリル プリント

つづきの無料プリント
「2けたのたしざん」のプリント一覧がひらきます

十と 一の くらいに わけて たそう⑤

2けたの たしざん（しあげ）

なまえ ＿＿＿＿＿＿＿＿

ひづけ ＿＿＿＿＿＿＿＿

・もんだいの 2けたの かず2つを、あたまの なかで くらいごとに わけて、一の くらいから たそう。
・わけた かずは □に かかず、あたまの なかで たそう。
・10か 10より おおきく なったら、1は □に いれず あたまの なかで 十の くらいに たそう。
・十の くらいの こたえと 一の くらいの こたえ（13なら 3）を、＝の あとの □2つに いれよう。

れい 26 + 47 = 7 3

一の くらい 6+7=13
十の くらい 2+4+1=7

れい 41 + 36 = 7 7

一の くらい 1+6=7
十の くらい 4+3=7

① 24 + 66 = □□

② 23 + 64 = □□

③ 42 + 52 = □□

④ 17 + 36 = □□

⑤ 85 + 11 = □□

⑥ 27 + 59 = □□

⑦ 14 + 29 = □□

⑧ 51 + 33 = □□

⑨ 25 + 15 = □□

⑩ 74 + 15 = □□

⑪ 11 + 58 = □□

⑫ 56 + 37 = □□

⑬ 12 + 47 = □□

⑭ 67 + 15 = □□

いちごドリル プリント

つづきの無料プリント
「2けたのたしざん」のプリント一覧がひらきます