10を つくって たそう①

2けた＋1けた（ずを みて さくらんぼに わける）

なまえ ＿＿＿＿＿＿＿＿

ひづけ ＿＿＿＿＿＿＿＿

・ぼうは 十、●は 一。わくは 10こまで はいる『へや』だよ。
・さくらんぼの ひだりの □は へやの あいて いる かず、みぎの □は はいらない ○の かず。
・こたえは『こたえ』の □2つに、十の くらいを ひだり、一の くらいを みぎに いれよう。

れい **38＋6**

こたえ **4** **4**

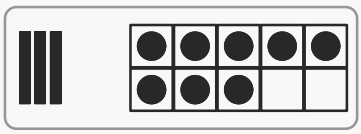

わける かず

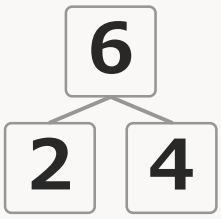

① **27＋5**

こたえ □ □

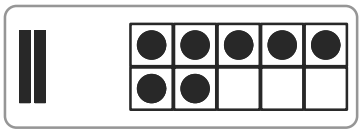

わける かず

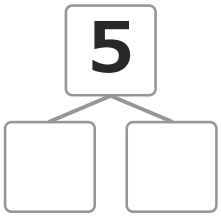

② **46＋7**

こたえ □ □

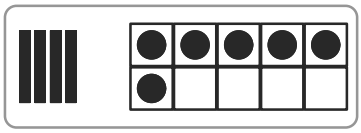

わける かず

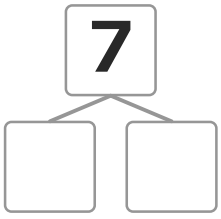

③ **58＋9**

こたえ □ □

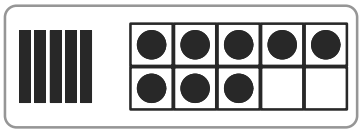

わける かず

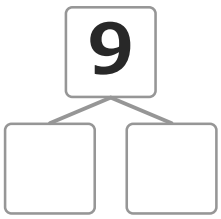

④ **35＋9**

こたえ □ □

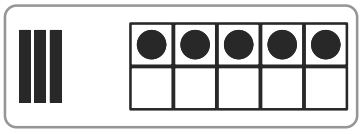

わける かず

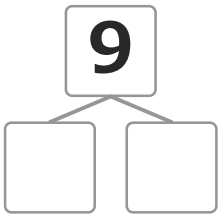

⑤ **69＋4**

こたえ □ □

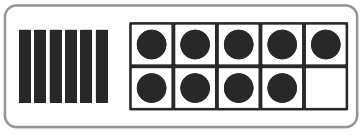

わける かず

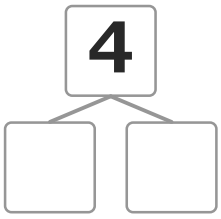

いちごドリル プリント

つづきの無料プリント
「2けたのたしざん」のプリント一覧がひらきます

10を つくって たそう②

2けた＋1けた（ずなし・わけかたを じぶんで きめる）

なまえ ＿＿＿＿＿＿＿＿

ひづけ ＿＿＿＿＿＿＿＿

・1けたの かずを『わける かず』の □に いれよう。
・ひだりの □は、2けたの かずの 一の くらい（47なら 7）と たして 10に なる かず。
・みぎの □は、わける かずから ひだりの □の かずを ひいた のこり。
・こたえは『こたえ』の □2つに、十の くらいを ひだり、一の くらいを みぎに いれよう。

れい 47＋5　こたえ 5 2

わける かず 5

3 2

れい 8＋65　こたえ 7 3

わける かず 8

5 3

① 28＋6　こたえ □ □

わける かず □

□ □

② 6＋39　こたえ □ □

わける かず □

□ □

③ 45＋8　こたえ □ □

わける かず □

□ □

④ 54＋9　こたえ □ □

わける かず □

□ □

⑤ 7＋64　こたえ □ □

わける かず □

□ □

⑥ 83＋9　こたえ □ □

わける かず □

□ □

いちごドリル プリント

つづきの無料プリント
「2けたのたしざん」のプリント一覧がひらきます

10を つくって たそう③

2けた＋1けた（しきを 2つに して たす）

なまえ ＿＿＿＿＿＿＿＿

ひづけ ＿＿＿＿＿＿＿＿

・れいの 37+8は、うしろの 8を 3と 5に わけて、2つの しきで たすよ。
・1つめの しきの □は、2けたの かずに たして 10の まとまり（37+3=40）に なる かず。
・2つめの しきは、1つめの こたえに のこりを たす（40+5）。
・はじめの □2つに 40を うつし、+の あとの □に のこり（5）を いれよう。
・こたえは『こたえ』の □2つに、十の くらいを ひだり、一の くらいを みぎに いれよう。

れい 37+8　こたえ 45

1つめの しき（10を つくる）　37 + 3 = 40

2つめの しき（のこりを たす）　40 + 5 = 45

① 49+5　こたえ □□

1つめの しき（10を つくる）　49 + □ = □□

2つめの しき（のこりを たす）　□□ + □ = □□

② 68+7　こたえ □□

1つめの しき（10を つくる）　68 + □ = □□

2つめの しき（のこりを たす）　□□ + □ = □□

③ 24+9　こたえ □□

1つめの しき（10を つくる）　24 + □ = □□

2つめの しき（のこりを たす）　□□ + □ = □□

④ 73+8　こたえ □□

1つめの しき（10を つくる）　73 + □ = □□

2つめの しき（のこりを たす）　□□ + □ = □□

⑤ 56+6　こたえ □□

1つめの しき（10を つくる）　56 + □ = □□

2つめの しき（のこりを たす）　□□ + □ = □□

10を　つくって　たそう④

2けた＋1けた（くりあがりが　ある・ない　まざる）

なまえ ＿＿＿＿＿＿＿＿

ひづけ ＿＿＿＿＿＿＿＿

・くりあがりが　ある　か　ない　か、ことばを　ぐるっと　かこもう。
・ひだりの　かずの　一の　くらいと　うしろの　かずを　たして　10より　おおきければ『ある』。
・『ある』ときだけ　さくらんぼに　かずを　いれよう。『ない』ときは　さくらんぼに　なにも　かかないよ。
・さくらんぼの　ひだりの　□は　一の　くらいと　たして　10に　なる　かず、みぎの　□は　のこり。
・『ある』『ない』どちらでも、こたえは『こたえ』の　□2つに（十の　くらいが　ひだり、一の　くらいが　みぎ）。

れい　26＋7　　くりあがり　ある　ない

わける　かず　7　→　4　3

こたえ　3　3

れい　52＋4　　くりあがり　ある　ない

わける　かず　4　→　ー　ー

こたえ　5　6

①　59＋4　　くりあがり　ある　ない

わける　かず　4　→　□　□

こたえ　□　□

②　48＋1　　くりあがり　ある　ない

わける　かず　1　→　□　□

こたえ　□　□

③　31＋8　　くりあがり　ある　ない

わける　かず　8　→　□　□

こたえ　□　□

④　63＋8　　くりあがり　ある　ない

わける　かず　8　→　□　□

こたえ　□　□

⑤　78＋6　　くりあがり　ある　ない

わける　かず　6　→　□　□

こたえ　□　□

⑥　65＋3　　くりあがり　ある　ない

わける　かず　3　→　□　□

こたえ　□　□

いちごドリル プリント

つづきの無料プリント
「2けたのたしざん」のプリント一覧がひらきます

10を つくって たそう⑤

2けた＋1けた（しあげ・わく なし）

なまえ ＿＿＿＿＿＿＿＿

ひづけ ＿＿＿＿＿＿＿＿

・あたまの なかで、うしろの かずを わけて 10を つくって たそう。
・わけた かずは □に かかないよ。こたえだけ『こたえ』の □2つに いれよう。
・十の くらいを ひだり、一の くらいを みぎに いれよう（こたえが 53なら ひだりが 5、みぎが 3）。

れい 28＋5　こたえ 3 3

5を 2と 3に わける
28＋2＝30、30＋3＝33

れい 47＋6　こたえ 5 3

6を 3と 3に わける
47＋3＝50、50＋3＝53

① 16＋8　こたえ □□

② 29＋6　こたえ □□

③ 74＋8　こたえ □□

④ 14＋7　こたえ □□

⑤ 65＋7　こたえ □□

⑥ 23＋8　こたえ □□

⑦ 86＋7　こたえ □□

⑧ 38＋5　こたえ □□

⑨ 82＋9　こたえ □□

⑩ 18＋5　こたえ □□

⑪ 77＋6　こたえ □□

⑫ 42＋9　こたえ □□

⑬ 33＋9　こたえ □□

⑭ 15＋7　こたえ □□

いちごドリル プリント

つづきの無料プリント
「2けたのたしざん」のプリント一覧がひらきます